MADRASAH IBTIDAIYAH ASMAIYAH TERAKREDITASI A
TAHUN PELAJARAN 2023 - 2024

PENILAIAN TENGAH SEMESTER (PTS) 2

Mata Pelajaran :Tema 6 (Subtema 1dan 2) Kelas : III (Tiga) Hari/ Tanggal : Rabu, 20 Maret 2024 Nama : ……..	Nilai			
	PPKN	B. Indo	Matematika	SBdP

I. Berikan tanda silang (x) pada jawaban yang benar dan isilah titik dengan jawaban yang benar !

Muatan PPKN

1. Salah satu kewajiban dalam menghemat energy BBM antara lain …
   a. Menggunakan sepeda motor jarak dekat
   b. Berjalan kaki jika ke tempat dekat
   c. Menghamburkan bensin
   d. Tidak memakai energi alternatif
2. Mematikan televisi saat tidak digunakan merupakan cara … energi
   a. Memakai b. Membuat c. Menghemat d. Menghamburkan
3. Membiarkan air menyala saat tidak dipakai meruapakan perbuatan yang …
   a. Terpuji b. Tidak terpuji c. Santun d. Baik
4. Mematikan kran air setelah digunakan merupakan …
   a. Hak b. Kewajiban c. Sopan d.Santun
5. Menggunakan air untuk mandi merupakan …
   a. Hak b. Kewajiban c. Sopan d.Santun
6. Bagaimana cara kita menghemat energy air?
   ……..……
7. Mengapa kita harus menghemat energi?
   ……..……
8. Sebutkan masing masing 2 hak dan kewajiban kamu terhadap energy!
   Hak:
   1. ……
   2. ……
   Kewajiban:
   1. ……
   2. ……

Muatan Bahasa Indonesia

9. Perubahan energy pada seterika adalah listrik menjadi …
   a. Gerak b. cahaya c. Bunyi d. Panas
10. Salah satu contoh perubahan energy listrik menjadi gerak terdapat pada …
    a. Kipas angin b. Kompor c. Sepeda motor d. Bel
11. Sumber energi yang terbesar adalah …
    a. Matahari b. Listrik c. Air d. Angin
12. Pembangkit Listrik Tenaga Surya disingkat menjadi …
    a. PLTB b. PLTA c. PLTS d. PLTU
13. Salah satu contoh perubahan energy listrik menjadi bunyi terdapat pada …
    a. Kipas angin b. Kompor c. Sepeda motor d. Bel
14. Tentukan perubahan energi pada benda berikut! (dari energi … menjadi energy ….)

Benda	Perubahan energi
Kompor gas	
Lampu	
Kipas	

15. Sebutkan 3 sumber energi yang ada di bumi!
    ……..……
16. Ceritakan proses perubahan energi air menjadi energi listrik?
    ……..……

LIVEWORKSHEETS

Muatan Matematika

17. Satu minggu ada … hari
    a. 4 b. 6 c. 5 d. 7
18. Satu bulan terdiri dari … minggu
    a. 4 b. 6 c. 5 d 7
19. Satu tahun terdiri dari … bulan
    a. 10 b. 12 c. 11 d. 13
20. Lamanya kegiatan jika dimulai pukul 12.00 sampai 15.15 adalah …
    a. 3 jam 15 menit b.. 3 jam c. 2 jam 15 menit d. 2 jam
21. Beni berangkat sekolah pukul 05.30 dan sampai disekolah pukul 06.30. maka Beni melakukan perjalanan selama …
    a. 4 jam b. 2 jam c. 3 jam d. 1 jam
22. Hitunglah lamanya kegiatan berikut!

No	Mulai	Berakhir	Lamanya
1	Senin	Jumat	….. hari
2.	Januari	Maret	…. Bulan
3.	09.00	10.30	… jam … menit
4.	11.00	14.00	… jam
5.	Rabu	Jumat	…. Hari
6.	04.05	05.30	… jam … menit

23. Gambarlah jam berikut!
    a. Pukul 12.
    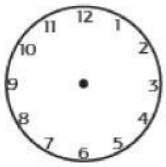
    b. Pukul 13.30
    
    c. Pukul 20. 10
    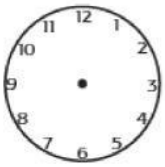

Muatan SBdP

24. Lagu Matahari diciptakan oleh …
    a. Nurhasanah b. AT Mahmud c. Nurmaryam d. Ibu Soed
25. Marakas dimainkan dengan cara …
    a. Dipukul b. Ditiup c.Digoyang d. Dipetik
26. Rebana dimainkan dengan cara …
    a. Dipukul b. Ditiup c. Digoyang d. Dipetik
27. Tamborin dimainkan dengan cara …
    a. Dipukul b. Ditiup c. Digoyang d. Dipetik
28. Rebana merupakan salah satu alat music …
    a. Melodi b. Ritmis c. Dangdut d. Pop
29. Sebutkan 3 alat music ritmis!

    ……..……
30. Tuliskan nama alat musik berikut!
    a.
    b.
    c.
    d.

    …… …… …… ……
31. Sebutkan 3 alat music yang dimainkan dengan cara dipukul!

    ……..……

LIVEWORKSHEETS