Czego się dzisiaj nauczyłem?

1. Zaznacz(kliknij) figury, które są wielokątami.

2. Nazwij poniższe wielokąty:

3. Ile boków, ile katów, ile wierzchołków maja poniższe wielokąty?

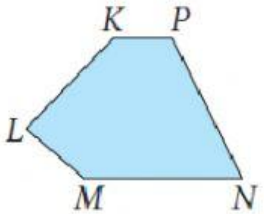

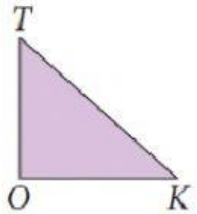

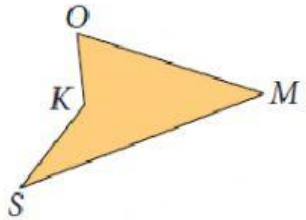

boków	boki	boki
wierzchołków	wierzchołki	wierzchołki
kątów	kąty	katy

LIVEWORKSHEETS