ROTACIÓN

Observa cada traslación y selecciona cuántos grados rotó la figura.

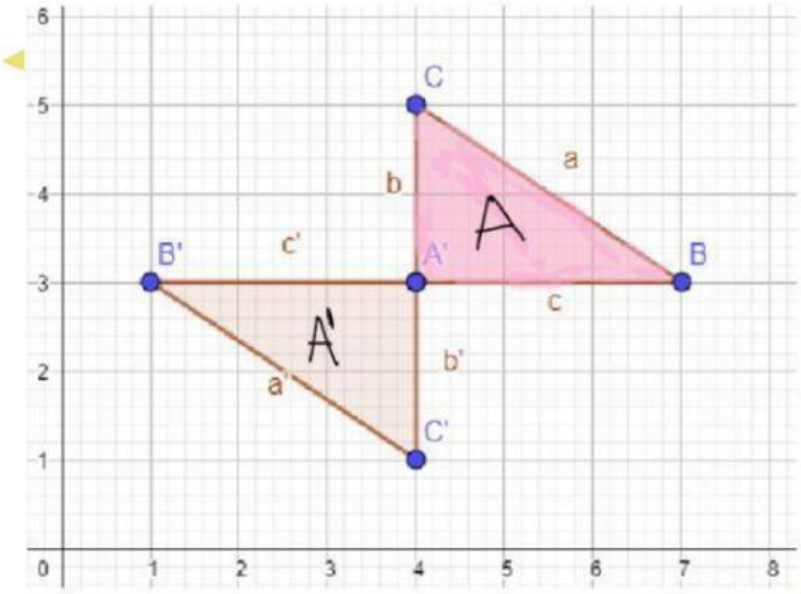

- 180° a la izquierda
- 180° a la derecha
- 90° a la izquierda
- 90° a la izquierda

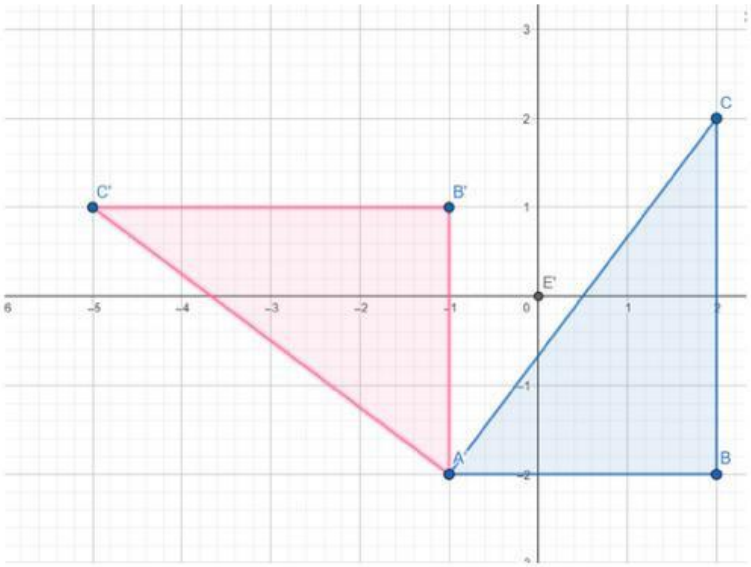

- 180° a la izquierda
- 180° a la derecha
- 90° a la izquierda
- 90° a la izquierda

Al rotar la figura en torno al origen, en 90° en sentido horario, los vértices B, C, D, E y F quedarán en las coordenadas:

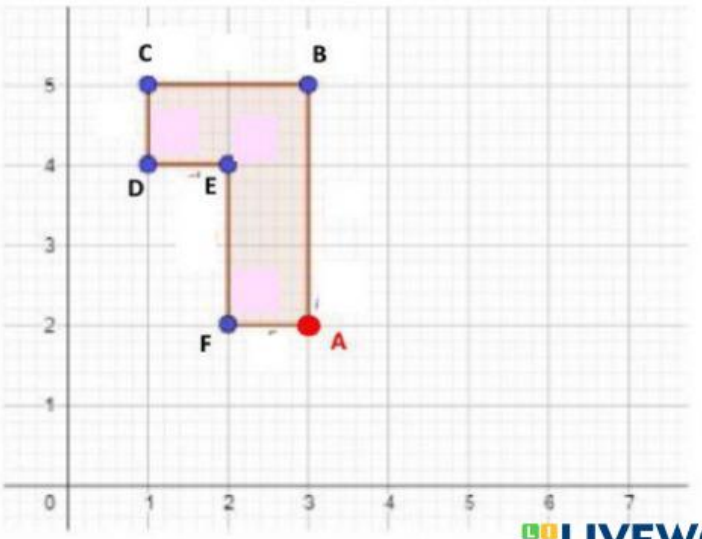

B'(,)

C'(,)

D'(,)

E'(,)

F' (,)

LIVEWORKSHEETS