# Ayo Belajar Matematika!
# Pecahan Senilai

kelas IV Semester 1

**Nama :**

**No. Absen :**

LIVEWORKSHEETS

## Capaian Pembelajaran

**Menjelaskan pecahan-pecahan senilai dengan gambar dan model konkret**

## Tujuan Pembelajaran

1. **Peserta didik dapat menentukan nilai pecahan dengan benar sesuai gambar.**
2. **Peserta didik dapat merincikan dua unsur pecahan dengan benar.**
3. **Peserta didik dapat menganalisis pecahan senilai sesuai gambar.**

LIVEWORKSHEETS

# Kegiatan 1

**1.Ayo kita simak video berikut ini!**

**2. Menentukan nilai pecahan**

**Cocokkanlah gambar dan nilai pecahan secara tepat!**

$\frac{1}{6}$

$\frac{2}{5}$

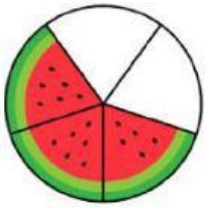

$\frac{1}{2}$

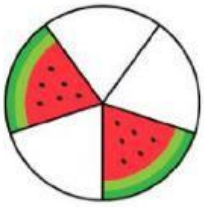

$\frac{3}{5}$

LIVEWORKSHEETS

# Kegiatan 2

## Rumus pecahan

$$\text{Pecahan} = \frac{\text{Pembilang}}{\text{Penyebut}}$$

contoh:

$$= \frac{2}{4}$$

$\frac{2}{}$ → **Pembilang**

$\frac{4}{}$ → **Penyebut**

**Tentukan nilai pecahan dan rincikan unsur unsur pecahan**

= 

Pembilang :

Penyebut :

= 

Pembilang :

Penyebut :

= 

Pembilang :

Penyebut :

= 

Pembilang :

Penyebut :

LIVEWORKSHEETS

## Kegiatan 3

**1.Ayo kita simak video berikut ini!**

## 2. Mencari Pecahan Senilai

**1). Isilah titik-titik di bawah ini dengan bilangan yang tepat agar pecahannya menjadi senilai!**

$$\frac{2}{3} = \frac{\square}{6} \qquad \frac{5}{3} = \frac{15}{\square}$$

$$\frac{4}{5} = \frac{\square}{10} \qquad \frac{1}{2} = \frac{5}{\square}$$

LIVEWORKSHEETS

**2). Isilah titik-titik di bawah ini dengan bilangan yang tepat agar pecahannya menjadi senilai!**

**a .**

**dan**



**b.**

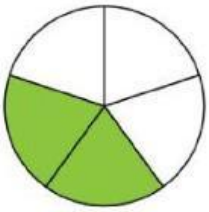

**dan**

**c.**

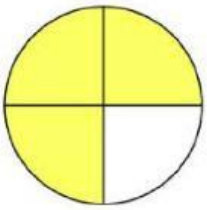

**dan**

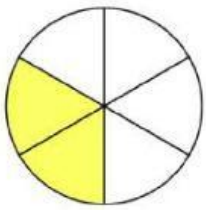

LIVEWORKSHEETS