1) Укажіть правильний і повний підпис до рисунка

1. Трикутник АВСК
2. Трикутник АВС з медіаною ВК
3. Трикутник АВС з бісектрисою ВК

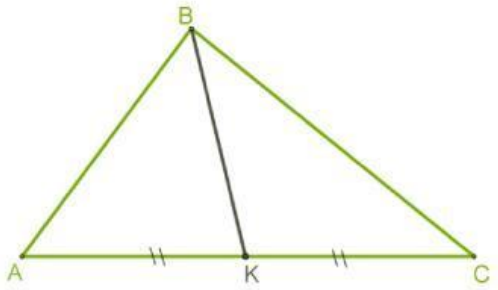

2) Укажіть правильний і повний підпис до рисунка

1. Трикутник АВСК
2. Трикутник АВС з висотою ВК
3. Трикутник АВС з бісектрисою ВК

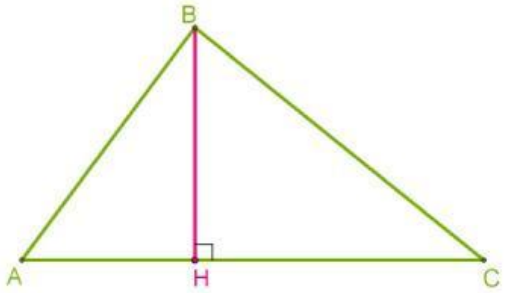

3) Укажіть правильний і повний підпис до рисунка

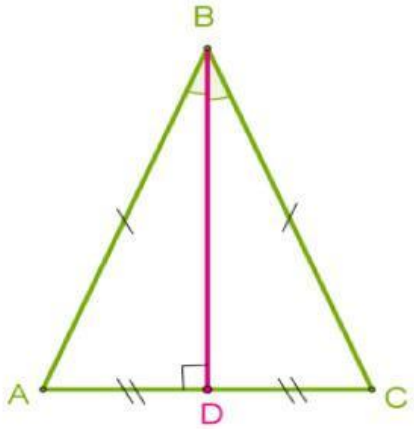

4) Укажіть правильний і повний підпис до рисунка

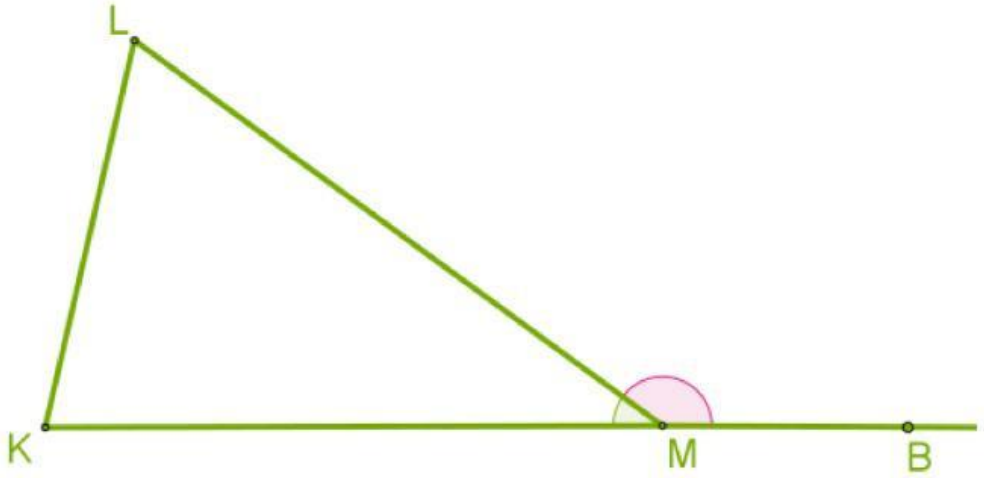

LIVEWORKSHEETS