BÀI KHẢO SÁT PHẦN LOGO

Câu 1: Em hãy chọn đáp án đúng trong câu sau. *(0.5 điểm)*

Trong phần mềm *MS Logo,* **để lưu thủ tục vào tệp khoi5.lgo, em phải gõ lệnh gì??**

Edit "khoi5.lgo Save "khoi5.lgo

Load "khoi5.lgo Save khoi5.lgo

Câu 2: : Em hãy chọn đáp án đúng trong câu sau. *(0.5 điểm)*

Trong phần mềm *MS Logo,* **để nạp tệp khoi5.lgo, em phải gõ lênh gì?**

Edit "khoi5.lgo Save "khoi5.lgo

Load "khoi5.lgo Save khoi5.lgo

Câu 3: Em hãy chọn đáp án đúng trong câu sau. *(0.5 điểm)*

Trong phần mềm *MS Logo,* **tên tệp nào sau đây là đúng?**

khoi5.lgo khoi5

"khoi5.lgo khối5.lgo

Câu 4: Em hãy chọn đáp án đúng trong câu sau. *(0.5 điểm)*

Trong phần mềm *MS Logo,* **một thủ tục trong Logo có mấy phần?**

2 phần 3 phần

4 phần 5 phần

Câu 5: Em hãy chọn đáp án đúng trong câu sau. *(0.5 điểm)*

Trong phần mềm *MS Logo,* **để thoát khỏi phần mềm em gõ lệnh nào sau đây?**

BYE CLEAN

HOME EXIT

Câu 6: Em hãy chọn đáp án đúng trong câu sau. *(0.5 điểm)*

Trong phần mềm *MS Logo,* **để vẽ hình** * **em sử dụng lệnh nào sau đây?**

PU REPEAT 6 [FD 10 BK 10 RT 60]

PD REPEAT 8 [FD 10 BK 10 RT 45]

PD REPEAT 8 [FD 10 BK 10 RT 45]

PD REPEAT 6 [FD 10 BK 10 RT 60]

LIVEWORKSHEETS

<u>Câu 7</u>: Em hãy chọn **các đáp án đúng** trong câu sau. *(1 điểm)*

Trong phần mềm *MS Logo,* **để vẽ hình** 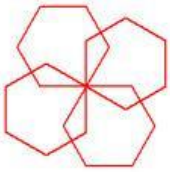 **em sử dụng lệnh nào sau đây?**

PU REPEAT 4 [REPEAT 5 [FD 50 RT 72] RT 360/4]

PU REPEAT 4 [REPEAT 6 [FD 50 RT 60] RT 90]

PD REPEAT 4 [REPEAT 6 [FD 50 RT 360/6] RT 360/4]

PD REPEAT 4 [REPEAT 6 [FD 50 RT 60] RT 90]

<u>Câu 8</u>: Em hãy chọn cụm từ "*setpc n, setpensize [m n]*" **để điền vào chỗ chấm** (…) **trong câu sau:** *(1 điểm)*

Để thay đổi màu vẽ em sử dụng lệnh , Để thay đổi nét vẽ em sử dụng lệnh

<u>Câu 9</u>: Em hãy đánh số thứ tự từ 1 đến 4 vào ô trống dưới đây, sao cho đúng với *"Các bước viết thủ tục HINHTRON* **để vẽ hình tròn trên máy tính.** *(2 điểm)*

Gõ lệnh *HINHTRON* trong ngăn lệnh để thực hiện thủ tục *HINHTRON*

Viết các lệnh vẽ hình tròn.

Ghi lại và đóng cửa sổ soạn thảo.

Mở cửa sổ soạn thảo.

LIVEWORKSHEETS

<u>Câu 10</u>: Em hãy nối các hình ở Cột A với các câu lệnh ở Cột B sao cho đúng *(2 điểm)*

Hình vẽ	Lệnh
1. 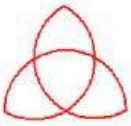	**A.** PD REPEAT 3 [REPEAT 90 [FD 2 RT 2] RT 60]
2. 	**B.** PD REPEAT 4 [REPEAT 4 [FD 50 REPEAT 360 [FD 5 BK 5 RT 1] bk 50 RT 90] RT 90]
3.	**C.** PD REPEAT 60 [FD 5 RT 6]
4.	**D.** PD REPEAT 4 [REPEAT 4 [FD 50 RT 90] RT 90]

LIVEWORKSHEETS