SOAL ULANGAN HARIAN

KLASIFIKASI MAKHLUK HIDUP

Nama :

Kelas :

No. Absen :

A. Pilihlah huruf a, b, c atau d sebagai jawaban yang paling benar !

1. Ketika mata kita terkena sinar matahari, maka tangan kita akan berusaha menutup mata atau mata kita berkedip. Hal ini menunjukkan kita memiliki ciri sebagai mahkluk hidup…
   a. Peka terhadap rangsang
   b. Bergerak
   c. Berkembang biak
   d. Bernafas
2. Ilmu yang mempelajari tentang klasifikasi makhluk hidup disebut…
   a. Ekologi
   b. Taksonomi
   c. Klasifikasi
   d. Takson
3. Seorang ilmuan biologi dari Swedia yang pertama kali melakukan perngelompokan tingkatan klasifikasi berdasarkan urutan takson adalah…
   a. Charles Darwin
   b. Carolus Linnaeus
   c. Gregor Mandel
   d. Louis Pasteur
4. Urutan tingkatan takson hewan berikut yang tepat adalah....
   a. Kingdom - Filum - Familia - Class - Ordo - Genus – Spesies
   b. Kingdom - Filum - Class - Familia - Ordo - Genus – Spesies
   c. Kingdom - Filum - Ordo - Familia- Class - Genus – Spesies
   d. Kingdom - Filum - Class - Ordo - Familia - Genus – Spesies

LIVEWORKSHEETS

5. Berikut ini penulisan nama ilmiah yang benar adalah ….
   a. adenium obesum
   b. Adenium Obesium
   c. Adenium obesum
   d. Adenium obesum
6. Adanya pegklasifikasian makhluk hidup bertujuan untuk ....
   a. Menentukan asal usul makhluk hidup
   b. Memberikan nama yang tepat pada setiap makhluk hidup
   c. Mempermudah pengenalan makhluk hidup yang beraneka ragam
   d. Memilih makhluk hidup yang berguna bagi manusia
7. Pada tumbuhan, umumnya memiliki organ-organ tubuh tumbuhan, kecuali ...
   a. Akar
   b. Batang
   c. Daun
   d. Akar semu (rizoid)
8. Dibawah ini yang termasuk tumbuhan dikotil adalah....

a.

c.

b.

d.

9. Perhatikan karakteristik kingdom fungi :
   i. Eukariotik
   ii. Sel berupa hifa (benang)
   iii. Heterotrof

LIVEWORKSHEETS

iv. Dinding sel terbuat dari kitin

v. Memiliki kloroplas

vi. Dapat menghasilkan spora untuk perkembangbiakan.

Diantara pernyataan tersebut, yang benar mengenai karakteristik kingdom fungi yang benar, ***kecuali***....

a. i dan ii

b. iii dan v

c. iv dan vi

d. ii dan iv

10. Dibawah ini yang termasuk contoh kingdom Monera yaitu.....

a.

c.

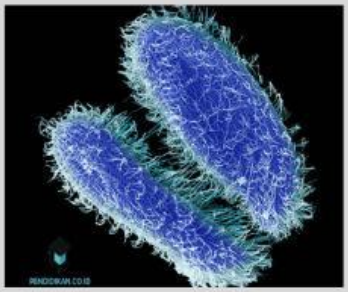

b.

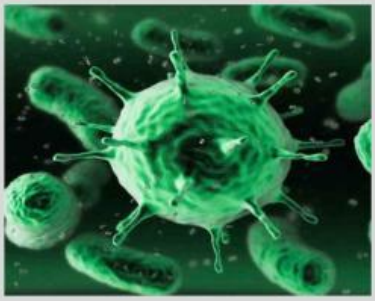

d.

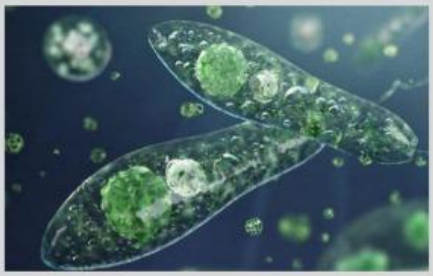

11. Perhatikan gambar dibawah ini !

Gambar tersebut termasuk kingdom ....

LIVEWORKSHEETS

a. Animalia
b. Fungi
c. Monera
d. Plantae

12. Menurut gambar di bawah manakah yang memiliki ciri berkembangbiak...

a.

c.

b.

d.

13. Berdasarkan sistem tata nama ganda, cara penulisan yang benar untuk nam jenis padi adalah ....
    a. *Oryza sativa*
    b. *Oriza Sativa*
    c. *oriza sativa*
    d. *ORYZA SATIVA*

14. Perhatikan gambar berikut !

1.	a. bertulang belakang	2
	b. tidak bertulang belakang	Invertebrata
2.	a. tubuh selalu basah	3
	b. tubuh tidak selalu basah	4
3.	a. kulit bersisik	Pisces
	b. kulit tidak bersisik	Amphibia
4.	a. menyusui anaknya	Mamalia
	b. tidak menyusui anaknya	5
5.	a. bertelur	Aves
	b. bertelur dan beranak	Reptilia

LIVEWORKSHEETS

Berdasarkan kunci determinasi di atas, kunci dikotom dari kelinci adalah

a. 1a – 2a – 3a
b. 1a – 2b – 3b
c. 1a – 2b – 4a
d. 1a – 2b – 4b

15. Perhatikan gambar dibawah !

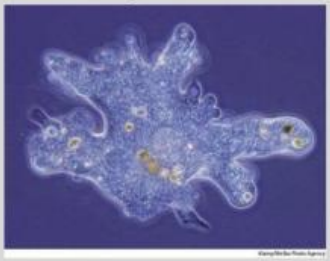

Organisme tersebut termasuk kingdom ...

a. Monera
b. Fungi
c. Protista
d. Animalia

LIVEWORKSHEETS

B. **Silakan jodohkan pertanyaan di bawah ini dengan memilih jawaban yang benar!**

Kunci determinasi dari Tumbuhan lumut adalah

Kunci determinasi dari Tumbuhan jagung adalah

Pemberian tata nama ganda /ilmiah makhluk hidup diatur dalam Kode Internasional yang disebut dengan

Padi memiliki nama ilmiah Oryza sativa. Kata Oryza merupakan petunjuk nama

Kata Indica dari Mangifera indica sebagai petunjuk

Spesies

Genus

1a – 2b

1b – 3a – 4b

Binomial Nomenclatur

LIVEWORKSHEETS