שם: _____

אחוזים

שאלה 1

מצאו קו בין האחוז לבין הצורה בה צבוע באופן החלק המתאים לו.



- 40%

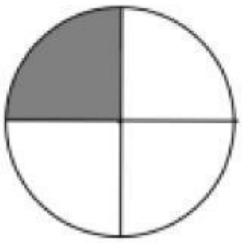

- 75%

- 33.333%



- 50%

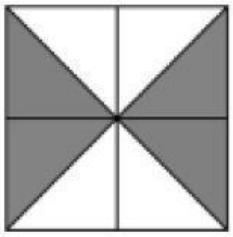

- 25%

LIVEWORKSHEETS

שאלה 2

השלימו את הטבלה:

אחוזים	מספר עשרוני	שבר פשוט
25%		$\frac{\square}{\square}$
%	0.35	$\frac{\square}{\square}$
%		$\frac{11}{100}$
4%		$\frac{\square}{\square}$
%	0.09	$\frac{\square}{\square}$
%		$\frac{3}{10}$

שאלה 3

השלימו ל-100%:

א. משפחת אחוזי חוסכת כל חודש 12% מהמשכורת.

מהו אחוז המשכורת שהמשפחה מוציאה כל חודש?

תשובה: %

ב. אחוז הבנים הלומדים בבית ספר "הר גילון" הוא 52%, מהו אחוז הבנות הלומדות בבית הספר?

תשובה: %

LIVEWORKSHEETS

ג. אחוז ספרי הקריאה לילדים בספריה העירונית הוא 34% מכלל הספרים. אחוז ספרי הקריאה למבוגרים הוא 38%. שאר הספרים בספריה הינם ספרי לימוד. מהו אחוז ספרי הלימוד בספריה?

תשובה: %

ד. בחורשה 28% מהעצים הם עצי אורן. 36% מהעצים הם עצי אלון. שאר העצים הם עצי אלה. מה אחוז עצי האלה בחורשה?

תשובה: %

ה. בגינת הפרחים 42% הם פרחי כלנית. 18% מהפרחים הם פרחי נוריות 24% מהפרחים הם פרחי רקפות ושאר הפרחים הם פרחי נרקיסים. מהו אחוז פרחי הנרקיסים בגינה?

תשובה: %

ו. אחוז המבוגרים הוא 38% מכלל התושבים. אחוז הילדים בישוב הוא 50%. שאר תושבי הישוב הינם תינוקות. מהו אחוז התינוקות בישוב?

תשובה: %

LIVEWORKSHEETS