Nama: _____ Tanggal: _____

Sudut dalam Segitiga dan Garis Sejajar



Temukan sudut yang tidak diketahui untuk setiap gambar. Pilih jawabanmu dari opsi yang disediakan dan seret untuk melengkapi sudut yang hilang.

24° 52° 42° 125° 50° 48°

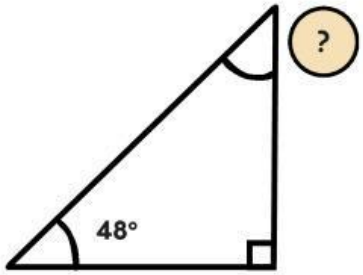

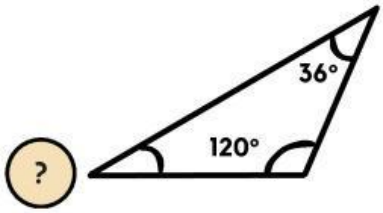

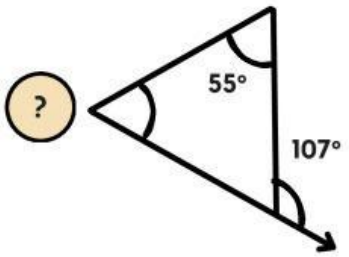

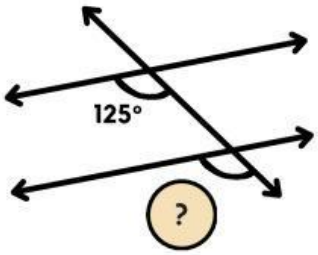

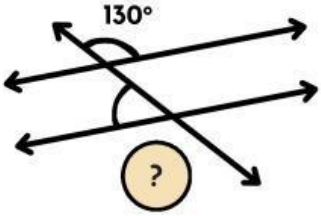

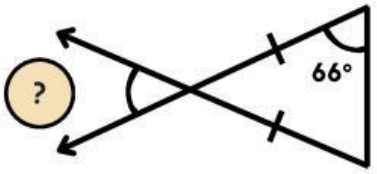

TERINSPIRASI OLEH mathspace

LIVEWORKSHEETS