Pretest

FUNGSI KUADRAT

Pasangkan nama fungsi di bawah dengan gambar yang teresedia dengan cara drag and drop !

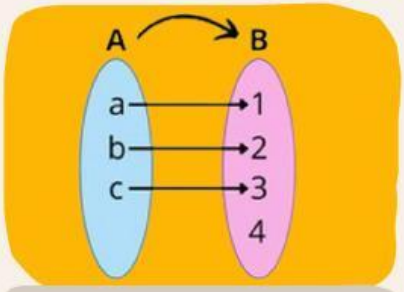

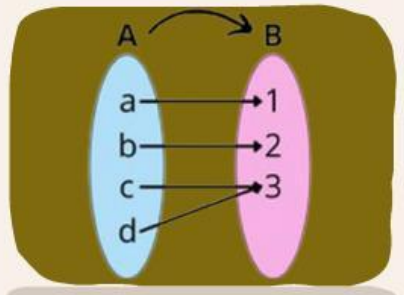

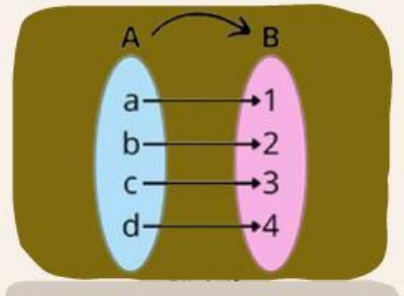

Bijektif | Surjektif | Injektif

Perhatikan fungsi berikut !

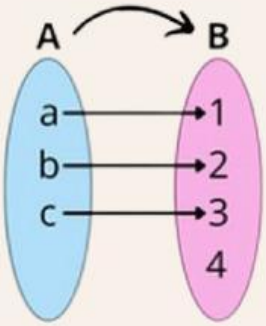

Yang merupakan domain adalah :

Yang merupakan kodomain adalah :

Yang merupakan range adalah :

LIVEWORKSHEETS

PRETEST

Menggambar grafik fungsi kuadrat

Diketahui grafik fungsi kuadrat $y = x^2 - 2x - 15$, titik potong pada sumbu Y dari grafik tersebut adalah...

a. (15, 0)
b. (0, -15)
c. (0, 15)
d. (15, 2)
e. (-15, 2)

Diketahui grafik fungsi kuadrat $y = x^2 - 2x - 15$, titik potong pada sumbu X dari grafik tersebut adalah...

a. (2, 3) dan (5, 4)
b. (0, -3) dan (5, 1)
c. (-3, 0) dan (5, 0)
d. (0, -3) dan (-5, 0)
e. (-3, 3) dan (5, 1)

Koordinat titik balik grafik fungsi kuadrat $f(x) = 2x^2 - 4x + 5$ adalah...

a. (1,3)
b. (1,5)
c. (1, 7)
d. (2,5)
e. (2,7)

LIVEWORKSHEETS