1) Ποια είναι η ονομασία του καθενός από τα παρακάτω γεωμετρικά σχήματα;





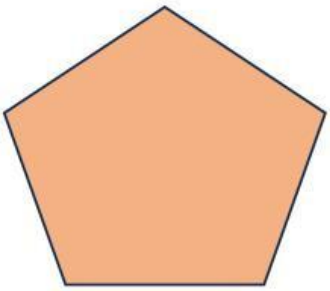

Ορθογώνιο Παραλληλόγραμμο
Πλάγιο Παραλληλόγραμμο
Ρόμβος
Τρίγωνο
Πεντάγωνο

LIVEWORKSHEETS

2) Ποια είναι η ονομασία του καθενός από τα παρακάτω γεωμετρικά στερεά;



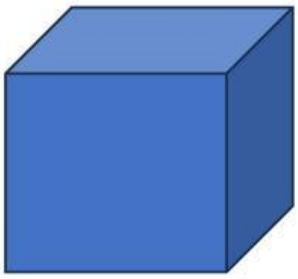

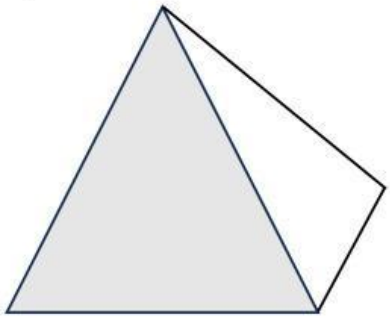

Πυραμίδα
Κύβος
Κύλινδρος
Ορθογώνιο παραλληλεπίπεδο

LIVEWORKSHEETS