LKPD

SISTEM EKSKRESI MANUSIA



KERJAKAN Soal di bawah ini !

1. Jika seluruh darah dalam tubuh melewati ginjal dalam 5 menit, berapa kali seluruh darah tersebut melewati ginjal selama satu jam?

A. 20 kali
B. 12 kali
C. 6 kali
D. 5 kali

2. Zat sisa metabolisme berikut yang diangkut oleh pembuluh kapiler menuju alveolus paru-paru adalah ....

I. Karbon dioksida
II. Air
III. Garam mineral

SISTEM EKSKR

LIVEWORKSHEETS

A. I dan II
B. I dan III
C. II dan III
D. I, II, dan III

3. pilihlah sesuai dengan zat yang dikeluarkan dari organ system ekskresi

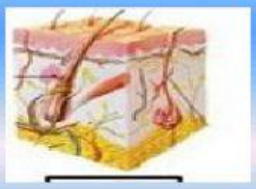

pilihlah nama-nama bagian proses pembentukan urine yang tertera pada huruf P, Q, dan R!

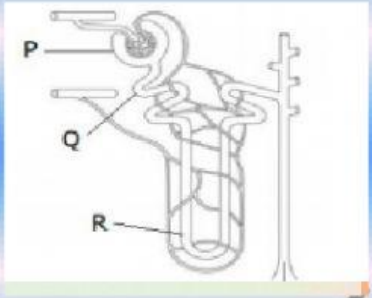

P
Q
R

4. Buatlah garis ke jawaban dengan benar!

Bintil-bintil kecil berwarna merah, terasa gatal atau perih, umumnya muncul ketika keringat berlebih saat cuaca panas atau lingkungan yang sangat lembab.	Nefron
unit penyaring darah di dalam ginjal.	Heme dan globin
Hemoglobin yang terkandung dalam sel darah merah dipecah menjadi	Biang keringat

LIVEWORKSHEETS

Tariklah nama bagian-bagian organ sesuai dengan gambar!

Bagian-bagian organ ginjal

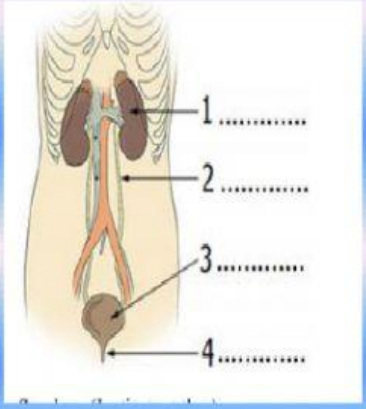

Nama bagian organ

1.

2.

3.

4.

pilihan bagian organ

KANTUNG KEMIH

URETRA

GINJAL

URETER

SISTEM EKSKRESI BY NUR IFTA'UL

LIVEWORKSHEETS