TRƯỜNG TIỂU HỌC TÔ HIỆU

BÀI TẬP TUẦN 19

LỚP 1 - SÁCH CÁNH DIỀU

CÁC SỐ 11, 12, 13, 14, 15, 16

LIVEWORKSHEETS

Đọc câu hỏi và chọn đáp án đúng:

Câu 1. Số?

10 11

12 13

Câu 2. Số?

13 14

15 16

Câu 3. Số 15 đọc là:

Một năm

Mười năm

Mười lăm

Năm một

LIVEWORKSHEETS

Câu 4. Số mười hai viết là:

102 12 21 02

Câu 5. Số mười sáu viết là:

6 106 16 06

Câu 6. Số mười ba viết là:

13 103 3 33

Câu 7. Trong các số 11, 12, 13, 14, 15, 16, số có hai chữ số giống nhau là:

11 12 13

14 15 16

LIVEWORKSHEETS

Bài 1. Số?



LIVEWORKSHEETS

Bài 2. Nối:

mười lăm	13
mười hai	15
mười bốn	12
mười một	14
mười sáu	16
mười ba	11

Bài 3. Viết số:

mười sáu	mười ba
mười hai	mười
mười một	năm
chín	mười lăm
mười bốn	bốn

LIVEWORKSHEETS

Bài 4.

Kéo thả số còn thiếu vào mỗi toa tàu.

a. 11 15 10 13

b. 11 12 9 13 10



c. 15 12 9 14 10

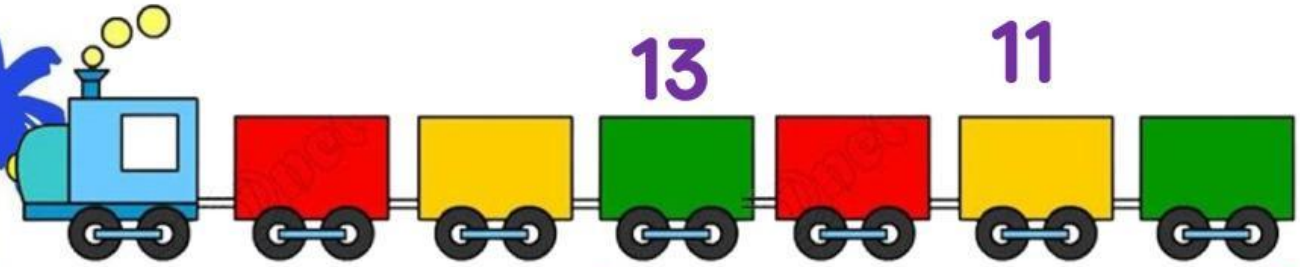

LIVEWORKSHEETS

Bài 5.

Kéo thả các số sau theo thứ tự lớn dần:

13 16 15 12 11

Kéo thả các số sau theo thứ tự bé dần:

14 10 15 11 16



LIVEWORKSHEETS

Bài 6. Số?

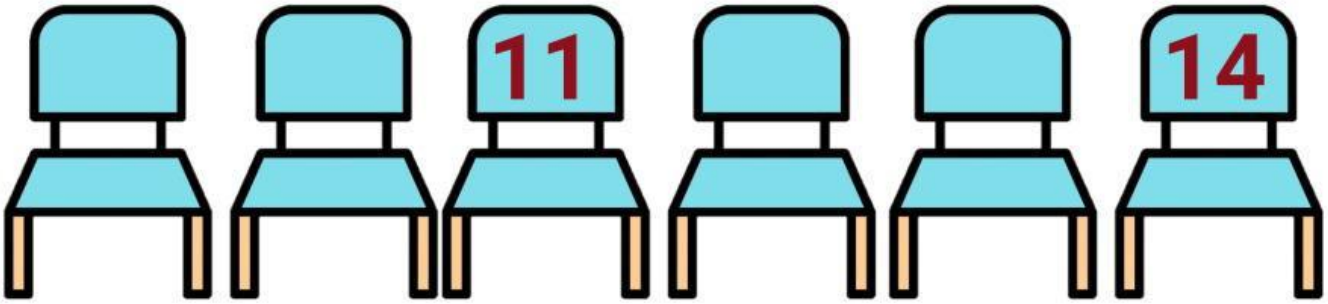

LIVEWORKSHEETS

Bài 7. Điền số thích hợp vào ô trống:

a.

Mỗi đội bóng đá có cầu thủ.

b.

Quốc huy của Nhật Bản là hình ảnh bông hoa cúc vẽ cách điệu với cánh bằng nhau.



LIVEWORKSHEETS