1. **Hány fokos és milyen fajta szöget látsz a szögmérőn?**

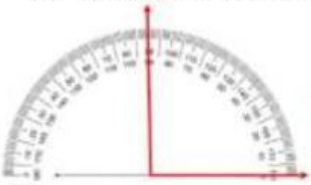

Fok:_____ **Fajta:**_____

Fok:_____ **Fajta:**_____

Fok:_____ **Fajta:**_____



Fok:_____ **Fajta:**_____

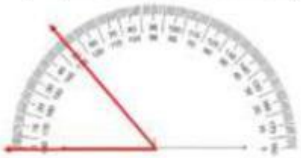

Fok:_____ **Fajta:**_____

Fok:_____ **Fajta:**_____

Fok:_____ **Fajta:**_____

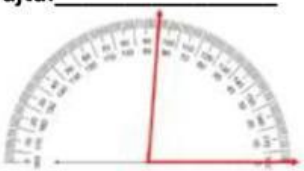

Fok:_____ **Fajta:**_____

2. **Hány órát mutat és hány fokos szöget zár be az óra kis és nagymutatója? Milyen fajta szög ez?**

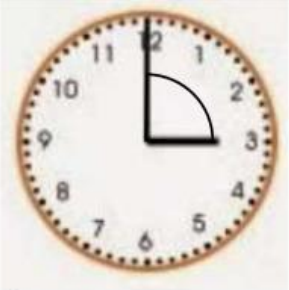			
Fok: **Fajta:**	**Fok:** **Fajta:**	**Fok:** **Fajta:**	**Fok:** **Fajta:**

3. **Számolj!**

2 harmad egyenesszög =	fok
1 ketted derékszög =	fok
3 negyed teljesszög =	fok
5 hatod egyenesszög =	fok

10°— 300’ =_____’
3°+50’ = _____’
2°—15’ = _____’
3°10’ + 5°26’ = _____°_____’

4. **Tölts ki a táblázat hiányzó adatait!**

		Derékszög				**Teljesszög**
0°			**90°< α <180°**			

5. **Döntsd el, hogy az alakzat sokszög vagy nem sokszög. Írd az alakzat alá!**

	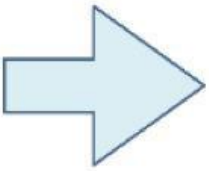	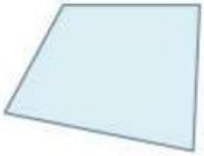		

LIVEWORKSHEETS