CIENCIAS SOCIALES. QUIZ LA ORIENTACIÓN.

1. Responde verdadero o falso:

- _____ La brújula es un instrumento que sirve para medir la temperatura.
- _____ La rosa de los vientos es una gráfica donde se ubican los puntos cardinales.
- _____ Los puntos intermedios son norte, suroriente, nororiente y suroccidente.
- _____ Los puntos cardinales son Norte, Sur, Este y Oeste.

2. Completa los puntos cardinales e intermedios que contiene la rosa de los vientos. Para ello ten en cuenta las palabras claves:



Palabras claves
N: Norte.
S: Sur.
O: Oeste – Occidente.
E: Este – Oriente.
NE: Noreste.
NO: Noroeste.
SE: Sureste.
SO: Suroeste.

3. une con una línea la definición y el concepto correspondiente:

• Lugar por donde sale el sol.	• Rosa de los vientos.
• Instrumento con una aguja imantada.	• Nororiente.
• Gráfica donde se ubican los puntos cardinales.	• Brújula.
• Punto cardinal intermedio.	• Este - Oriente.

LIVEWORKSHEETS

4. Observa la siguiente imagen. Luego, reconoce los puntos cardinales.

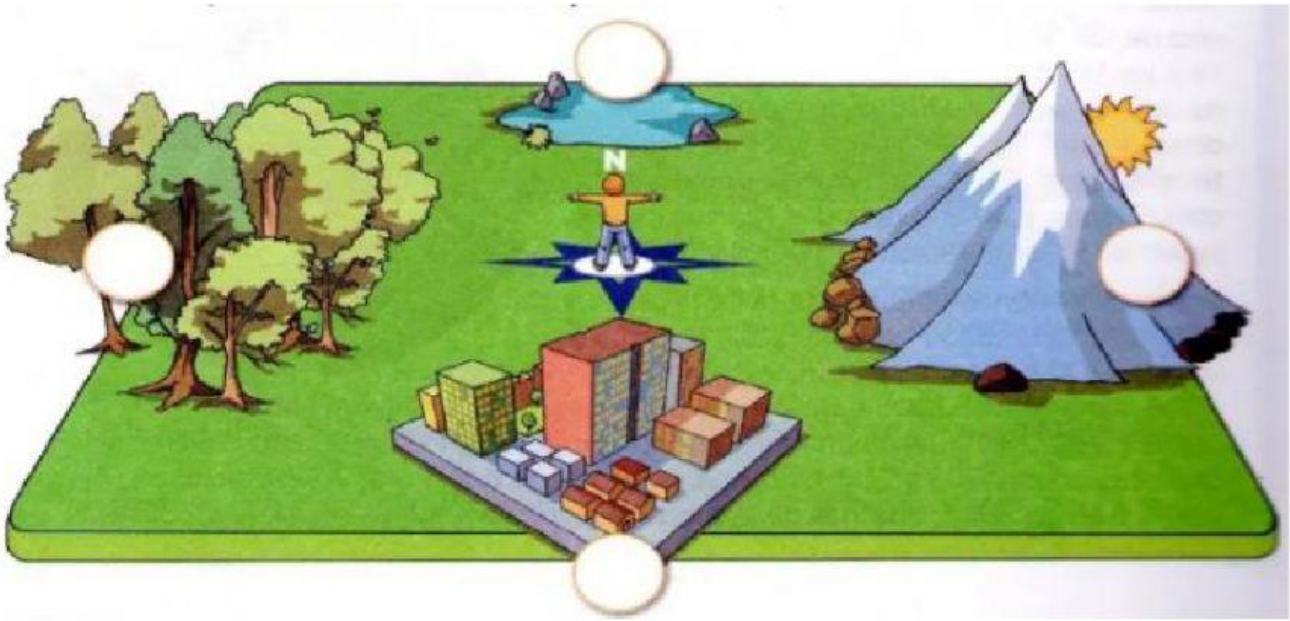

Completa las oraciones. Con respecto al niño de la imagen anterior.

- Las montañas se encuentran al
- Los árboles están al
- La Laguna al
- La ciudad se encuentra al

5. Observo la imagen y marco la posición de los edificios.

- Al **OESTE** de la comisaria está
- Al **ESTE** de la iglesia está
- Al **NORTE** del cine está
- Al **SUR** de la iglesia está
- Al **ESTE** del municipio está



LIVEWORKSHEETS