PENILAIAN TENGAH SEMESTER

Hari, tanggal : Kamis, 25 Februari 2021

Nama :

Mata Pelajaran : Tematik

Berbelanja Sayur

Makanan sehat adalah makanan bersih dan bergizi.

Makanan sehat yang harus adalah sayuran.

Hari ini nazwa ingin memasak sayur sop.

Nazwa akan membuat sayur sop.

Nazwa membutuhkan sayur tomat, wortel, dan kol.

Harga tomat enam ribu rupiah.

Harga wortel tiga ribu rupiah.

Harga kol sepuluh ribu rupiah.

Nazwa memiliki uang Rp 20.000,-

Ayo bantu Nazwa menghitung belanjaannya

LIVEWORKSHEETS

Pilihlah pilihan jawaban A, B atau C yang menurut kalian paling tepat!

1. Apa judul bacaan di atas ?
   a. sayur sop
   b. makanan sehat
   c. berbelanja sayur

2. Makanan sehat adalah ....
   a. 4 sehat 5 sempurna
   b. bersih dan bergizi
   c. enak dan bergizi

3. Siapa yang belanja sayur di pasar?
   a. ibu nazwa
   b. adik Nazwa
   c. Nazwa

4. sayuran apa saja yang dibutuhkan nazwa ?
   a. tomat, wortel dan kol
   b. tomat, sosis dan kol
   c. tomat, wortel dan sawi

5. nazwa akan memasak ....
   a. sayur asem
   b. sayur lodeh
   c. sayur sop

LIVEWORKSHEETS

hitunglah jumlah sayur yang akan dibeli Nazwa!

6. *nazwa membeli sayur* _____

.... + ... + ... = ...

.... x .... = ...

7. *nazwa membeli sayur* ____

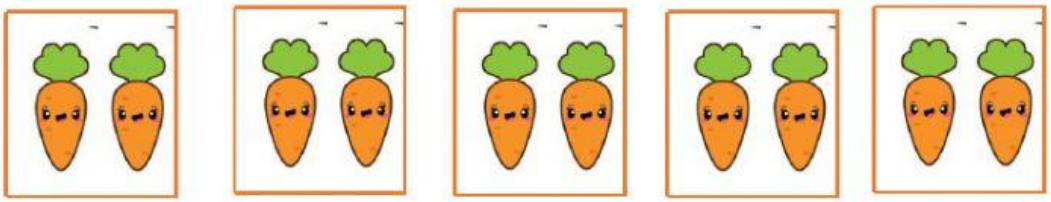

.... + ... + ... + ... + ... = ...

.... x .... = ...

8. *nazwa membeli sayur* ____

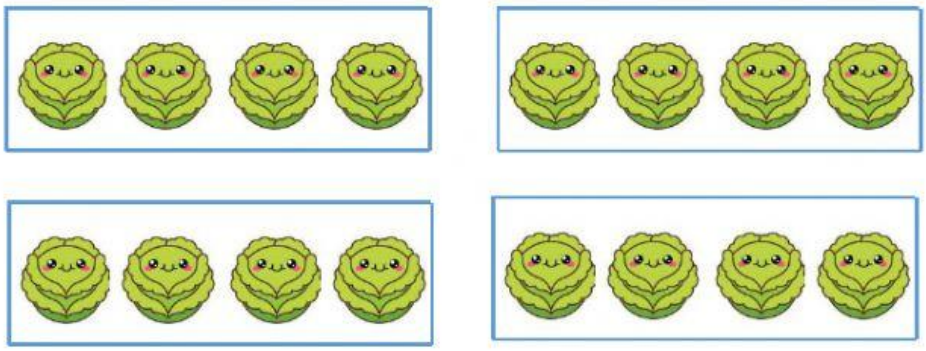

.... + ... + ... + ... = ...

.... x .... = ...

LIVEWORKSHEETS

9.

Rp 10.000

Rp _____ -

Rp .....

10.

Rp 10.000

Rp _____ -

Rp .....

11.

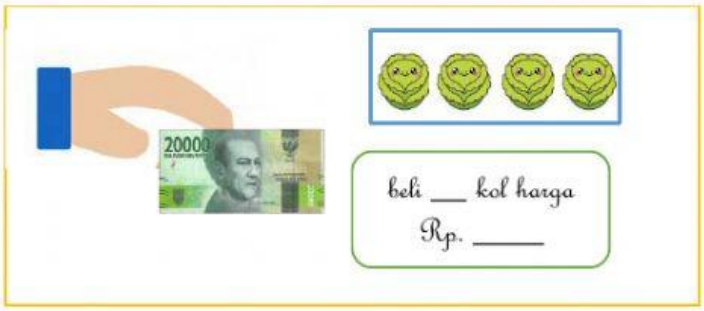

Rp 20.000

Rp _____ -

Rp .....

12.

Rp 20.000

Rp .....

Rp .....

Rp _____ -

Rp .....

13.

uang logam berikut bernilai _____

di uang logam terdapat burung _____

LIVEWORKSHEETS

14. Bunyi sila Pancasila pertama adalah ....

a. Ketuhanan yang Maha Esa

b. Kemanusiaan yang adil dan beradab

c. Persatuan Indonesia

15. Sila kedua Pancasila di wakili dengan symbol ....

a.

b,

c.

16.

• •

17.

• •

18.

• •

19.

• •

20.

• •

LIVEWORKSHEETS