# LKPD

# TIK KELAS 7

## MATERI PERANGKAT KERAS

NAMA :

KELAS :

GURU :

SMP NEGERI 1 WOYLA BARAT

LIVEWORKSHEETS

# PERHATIKAN MATERI DARI VIDEO BERIKUT:

# BACALAH MATERI YANG TERLAMPIR DALAM PPT BERIKUT:

LIVEWORKSHEETS

# Berikan nama dan fungsi dari perangkat komputer berikut:

| Gambar | Nama | Fungsi |
|---|---|---|
| | | |
| | | |
| | | |
| | | |
| | | |
| | | |

LIVEWORKSHEETS

# pilihlah benar atau salah dari gambar berikut !

| | Nama | Benar atau Salah | |
|---|---|---|---|
| | Joystick | Benar | Salah |
| | Pemindai Biometrik | Benar | Salah |

# Lengkapilah Tabel nama dan jenis perangkat berikut !

| | Nama | Jenis Perangkat |
|---|---|---|
| | | |
| | | |
| | | |

LIVEWORKSHEETS

**Silahkan Tarik garis dari lajur kanan ke lajur kiri sehingga menjadi jawaban yang benar !**








**Microfon**

**Pemindai Biometrik**

**RAM**

**Kartu Grafis**

**Sound Card**

LIVEWORKSHEETS