Fernando Lozano Jerez
CEIP Virgen de la Caridad

REPASO MATEMÁTICAS TEMA 6

1.Escribe los números correspondientes

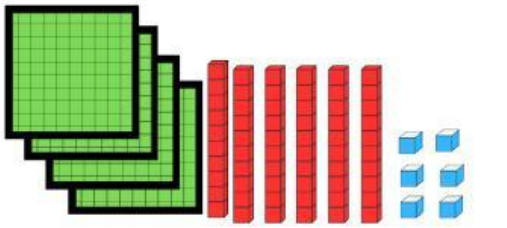

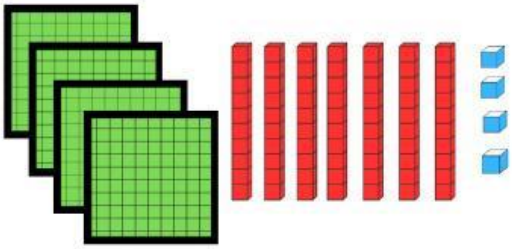

+ + + + +

____C+____D+____U ____C+____D+____U

2. Escribe los números que están entre 425 y 433

3. Completa

-467= ____C+ ____D + ____U -489= ___C+___D+___U

-4C+1D+6U= _____ -4C+3D+2U=_____

-417=_____

-453=_____

-469=_____

4. Ordena de mayor a menor.

485, 443, 437, 412, 458, 417.

> > > > >

5. Calcula estas operaciones

84	62	81	80	43	73	84
-69	-43	-52	-14	-25	-53	-68

LIVEWORKSHEETS

Fernando Lozano Jerez
CEIP Virgen de la Caridad

REPASO MATEMÁTICAS TEMA 6

6. Marca las figuras que sean polígonos.



6. En un almacén se han empaquetado 247 gorros y 215 bufandas. ¿Cuántos gorros <u>más que</u> bufandas se han empaquetado?

Datos: gorros

bufandas

¿Para calcular una diferencia se hace una <u>suma</u> o una <u>resta</u>? Escríbelo

Ahora calcula el resultado. Escribe + si es una suma o - si tienes que hacer una resta.

247

215

LIVEWORKSHEETS