ESCUELA DE EDUCACION BASICA FISCOMISIONAL CRISTO REY
ESMERALDAS – ECUADOR

EVALUACIÓN DEL TERCER TRIMESTRE (AC)

NOMBRE: …….
AÑO BÁSICO: 4to **PARALELO:** A, B, C, D
ASIGNATURA: SABER AMAR
PROFESOR: Lic. Karen Bone **FECHA: …… de febrero del 2024**

Con ayuda de un adulto escucha detenidamente cada pregunta o enunciado, luego encierre la respuesta correcta.
Nota: no se aceptan tachones ni borrones

1. **La imagen que represente la amistad es: (0,5 pt.)**

A

B

C



2. **La imagen donde se ve que están cuidando el planeta es: (1 pt.)**

A

B

C

3. **Las actitudes positivas para cuidar la amistad son: (1pt)**
   a) auténticos – generoso – respetuoso
   b) fastidioso – grosero – insensible
   c) mentiroso – egoísta – deshonesto
4. **La actitudes que mantienen nuestra mente y cuerpo saludables son: (1 pt.)**
   a) Dormir todo el día e ingerir comida chatarra.
   b) Hacer deportes, dormir mínimo 8 horas y comer saludable.
   c) Estar triste.
5. **Una actitud que no destruya el medio ambiente es: (1 pt.)**
   a) Tener las luces encendidas cuando no se las está utilizando
   b) Botar basura en los ríos
   c) Reutilizar y ahorrar energía

LIVEWORKSHEETS

Escoja el literal con el par de palabras que den sentido a la oración. (1 pt c/u)

6. **Los amigos son personas especiales que están unidas por _____e _____ parecidos.**
   a) Animales – incondicional
   b) Gustos – intereses
   c) Discusiones - pensamientos

7. **Los amigos son parte fundamentales de nuestras _____, por ello debemos mantener actitudes_____ con cada uno de ellos. (1 pt.)**
   a) Vidas - positivas
   b) Casas - negativas
   c) Comidas - sociales

8. **Selecciona las actividades que debes realizar para cambiar tu estilo de vida (1 pt.)**
   a) Practicar deportes
   b) Odiar
   c) Practicar instrumentos
   d) Danzar o bailar
   e) Pelear
   f) Discutir

A. a – c – d
B. f – d – b
C. a – d – e
D. f – c – a

9. **Relaciona el juego tradicional con la imagen que presenta. (1 pt.)**

A. Ensacado

1

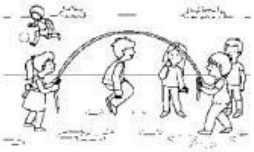

B. Cuerda

2

C. La quemada

3



D. La rayuela

a) A-2; B-4; C-1
b) A-4; B-1; D-2
c) A-4; B-3; D-1
d) A2; B-1; D3

LIVEWORKSHEETS

CON AYUDA DE UN ADULTO ESCUCHA LOS SIGUIENTES TEXTOS Y RESPONDA LAS SIGUIENTES PREGUNTAS (0,5 pt.)

10. ¿Qué pasa si hacemos mal uso de los recursos del medio ambiente?

a) Ponemos en peligro nuestro planeta
b) No pasaría nada, todo estaría bien
c) Se caerían las nubes

11. Una de las causas del calentamiento global es:

a) El uso excesivo de combustibles.
b) El cuidado de las plantas
c) Las clases en las escuelas

12. Una de las consecuencias del calentamiento global es:

a) Se fueran a otro país
b) Los océanos y los peces andarían tranquilos
c) El hielo de los océanos Árticos y Antártico se descongelarían

Lic. Karen Bone	Lcda. Grace Angulo	Lic. Lilian Coello Pinargote M.Sc
DOCENTE	**COORDINADOR AREA**	**COORDINACIÓN ACADEMIC**

LIVEWORKSHEETS