ОПОРНО – РУХОВА СИСТЕМА ТВАРИН

I. Визначте, якими цифрами позначено:

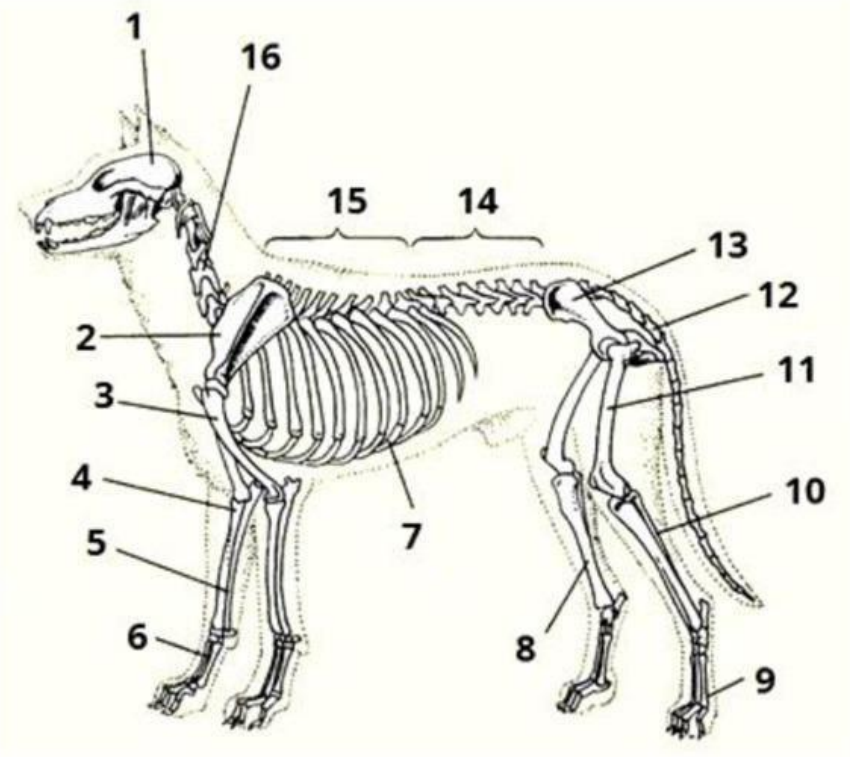

1) Лопатка
2) Плечова кістка
3) Таз
4) Відділ хребта, у якому 7 хребців
5) Поперековий відділ хребта

II. Визначте, якими цифрами позначено:

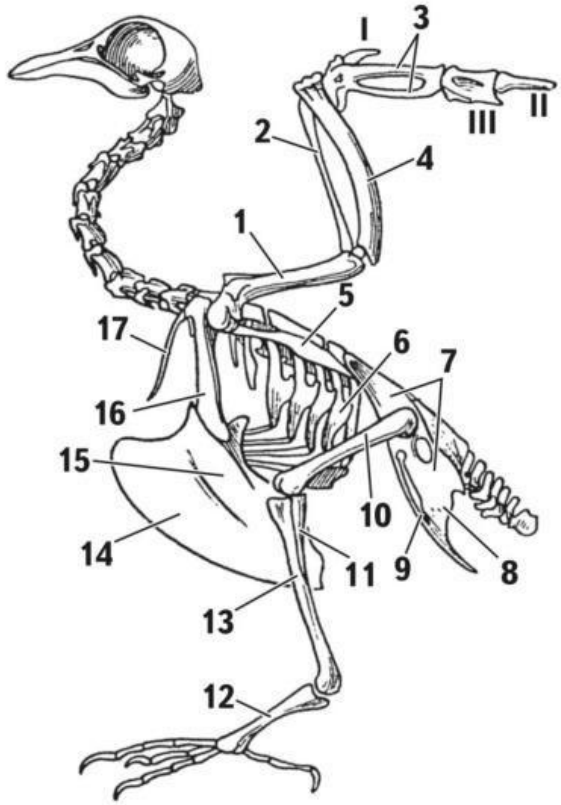

1) Променева кістка
2) Ключиця
3) Кіль
4) Цівка
5) Складні крижі

LIVEWORKSHEETS

III. Визначте, якими цифрами позначено:

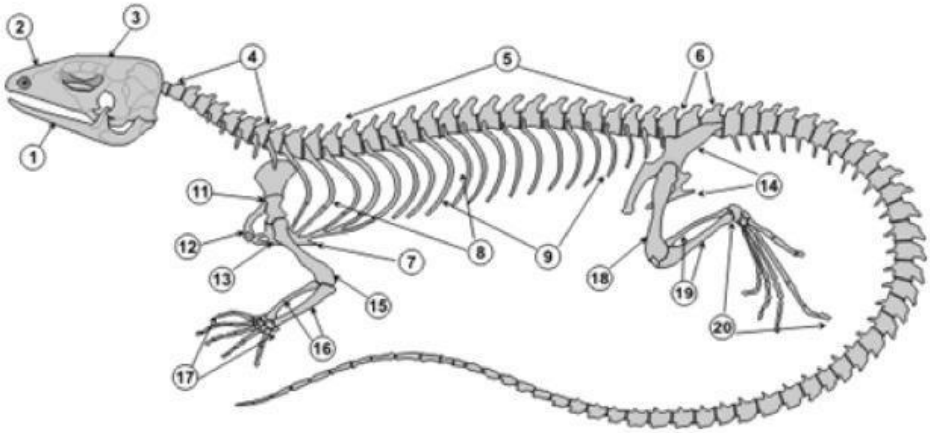

1) Грудний відділ хребта
2) Крижовий відділ хребта
3) Кисть
4) Стегнова кістка

IV. Визначте, якими цифрами позначено:

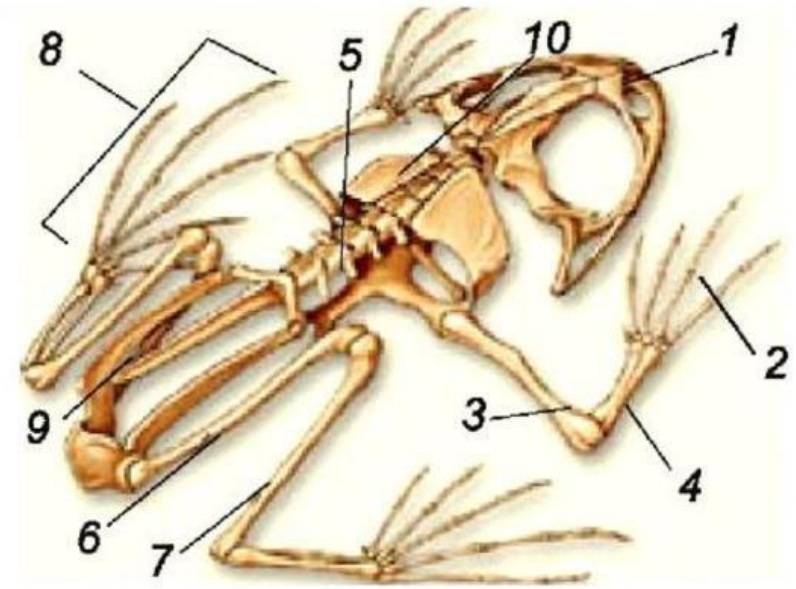

1) Череп
2) Гомілка
3) Стопа

V. Визначте, якими цифрами позначено:

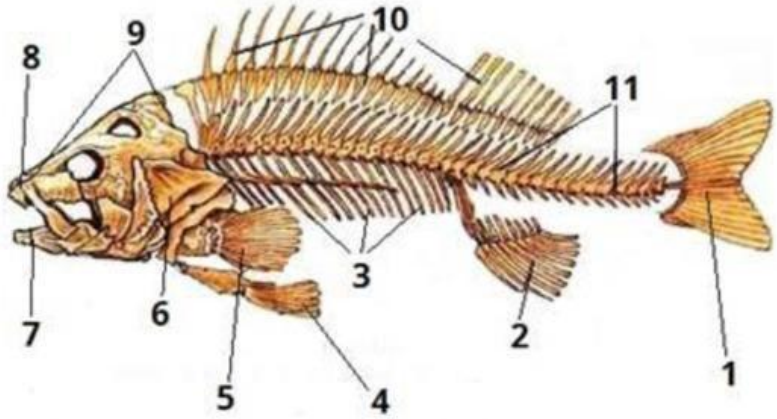

1) Зяброва кришка
2) Грудний плавець
3) Хвостовий відділ хребта
4) Нижня щелепа

LIVEWORKSHEETS

VI. Визначте тип скелету:

VII. Дайте відповіді на запитання

1) Виберіть групу тварин, у яких зрослися ключиці
2) Виберіть групу тварин, які не мають ребер
3) У цих тварин вперше з'явилася грудна клітка
4) У цих тварин вперше з'явився таз
5) У цих тварин у шийному відділі хребта лише один хребець
6) Ці тварини у хребті мають лише тулубний та хвостовий відділи
7) Ця група тварин має пневматичні кіски (заповнені повітрям)

LIVEWORKSHEETS