PEMERINTAH KABUPATEN LUWU TIMUR
DINAS PENDIDIKAN
SDN 264 WAWONDULA
Jl. Gunung Agung No. 01 Wawondula, Kec. Towuti

PENILAIAN TENGAH SEMESTER (PTS) Tahun Pelajaran : 2020/2021	
Kelas / Semester : 1 / 2	Nama :
Tema : 6 (Lingkungan Bersih, Sehat, dan Asri)	Nomor Absen :
Waktu : 120 Menit	Tanggal : 03 Maret 2021

A.3,2/6 1. Beri tanda (√) pada gambar berikut yang merupakan kebiasaan baik.



A.3,4/5 2. Tuliskan 1 aturan menjaga kebersihan jalan _____

A.3,1/5 3. Simbol sila ke-3 adalah _____

B.3,8/5 4. Susunlah kata di bawah ini menjadii kalimat petunjuk.

air	ember	ke	tuang	dalam

Menjadi

B.3,8/5 5. Tulislah 1 kalimat ajakan yang kamu ketahui .

_____

B.3,8/5 6. Tulislah 1 ungkapan pemberitahuan tentang menjaga kebersihan lingkungan.

_____

7.

C.3,4/8

40 = ... puluhan + ... satuan
20 = ... puluhan + ... satuan –
... puluhan + ... satuan = ...

⇒ 40
20 –
.....

LIVEWORKSHEETS

8. Ibu akan menyetrika. Ibu menghitung pakaian yang akan disetrika. Banyak pakaian ada 29 helai. Setelah menyetrika 21 baju, ayah datang membantu ibu. Berapa pakaian yang belum diseterika ibu?

C.3,4/9

Pakaian yang akan disetrika = +

Pakaian yang sudah disetrika = +

Pakaian yang belum disetrika = +

=

9. Tuliskan nama bangun datar di bawah ini.

C.3,7/10

_____

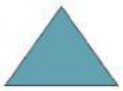

_____

_____

10. Berilah tanda (√) pada benda yang lebih berat, kemudian isilah berapa berat kelereng pada masing-masing kotak.

C.3,8/8

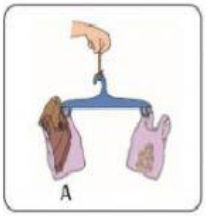

Berat A = ... kelereng

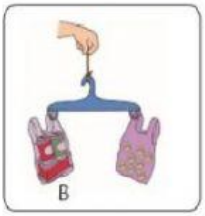

Berat B = ... kelereng

Mana yang lebih berat?

A ☐

B ☐

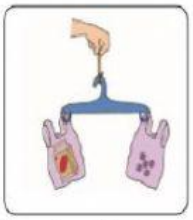

Berat A = ... kelereng

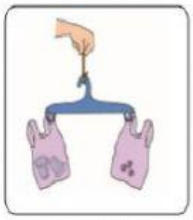

Berat B = ... kelereng

Mana yang lebih berat?

A ☐

B ☐

11. Hitunglah banyak benda di bawah ini.

C.3,1/2

= ◯



= ◯

12. pukulan rebana menghasilkan bunyi yang _____

F.3,2/9

Goyangan marakas menghasilkan bunyi yang _____

LIVEWORKSHEETS

F.3,3/7

13. Dayu sedang menirukan gerakan _____

F.3,1/4

14. Karya disamping termasuk jenis karya _____ dimensi

F.3,4/8

15. Topi hias di samping terbuat dari _____

A'.3,5/9

16. Udin sedang melakukan gerakan _____ ke depan

A'.3,5/11

17. Beni sedang melakukan gerakan _____ kaki

A'.3,5/12

18.

_____ _____ _____

LIVEWORKSHEETS