Rette e angoli

1 Classifica nella tabella le rette a seconda della loro posizione reciproca. Segui l'esempio.

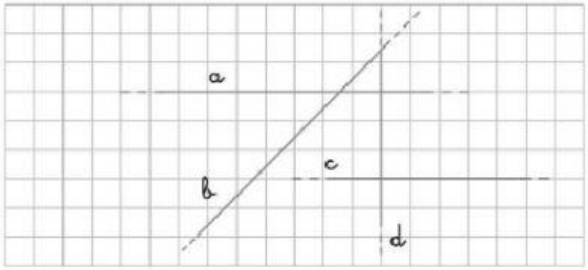

	a	b	c	d
a	X	*incidenti*	.....	.....
b	.....	X	.....	.....
c	.....	.....	X	.....
d	.....	.....	.....	X

2 Osserva, scrivi il tipo di linea rappresentata e completa.

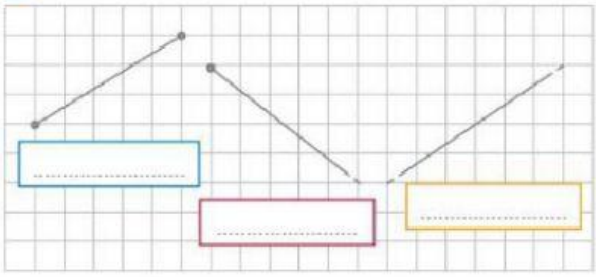

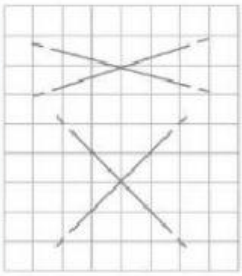

- Due rette incidenti formano ..... angoli ..... e ..... angoli .....
- Due rette perpendicolari formano ..... angoli .....

3 Indica l'ampiezza degli angoli colorati senza usare il goniometro.

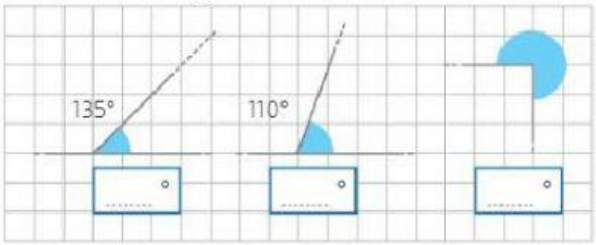

4 Misura l'ampiezza degli angoli con il goniometro.

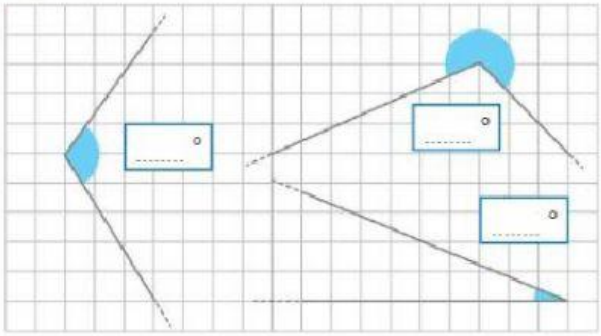

5 Osserva e completa.

- In che posizione è la retta rispetto a te?

La retta è in posizione .....

- In che posizione è la retta per i due bambini?

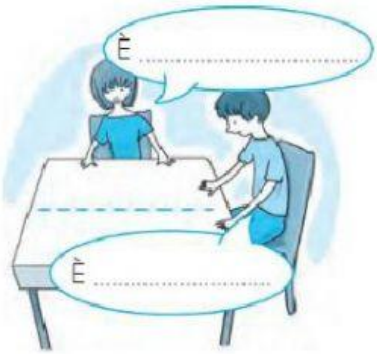

LIVEWORKSHEETS