NAMA:

NO:

KELAS:

LIVEWORKSHEETS

Gambar di bawah ini menunjukkan bahwa sifat cahaya....

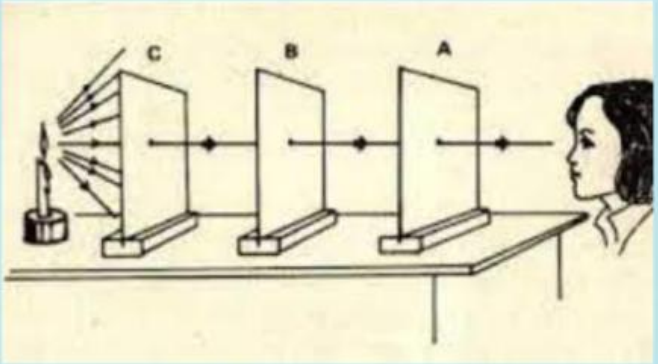

A. Cahaya merambat lurus

B. Cahaya dapat dipantulkan

C. Cahaya dapat dibiaskan

Gambar di bawah ini menunjukkan bahwa sifat cahaya....

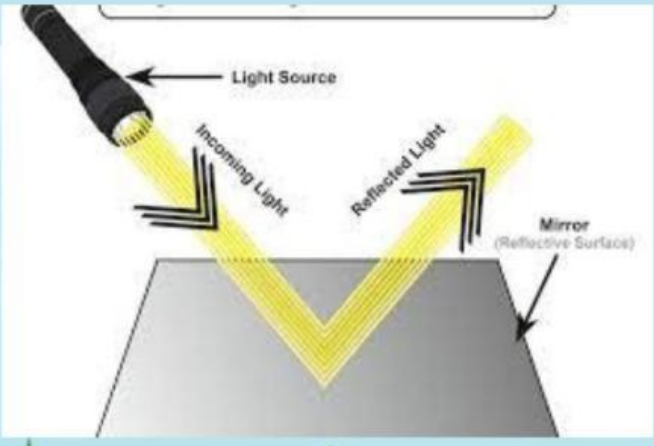

A. Cahaya dapat dibiaskan

B. Cahaya merambat lurus

C. Cahaya dapat dipantulkan

LIVEWORKSHEETS

Tariklah jawaban yang benar kekolom yang disediakan



PILIH DI SINI YAA....

CAHAYA DAPAT DIURAIKAN

CAHAYA DAPAT MENEMBUS BENDA BENING

CAHAYA DAPAT DIBIASKAN

LIVEWORKSHEETS