LEMBAR KERJA PESERTA DIDIK (LKPD)

PERMINTAAN, PENAWARAN, HARGA DAN PASAR

Nama :

1.

2.

3.

4.

5.

6.

LIVEWORKSHEETS

Jodohkan pernyataan berikut dengan menarik garis!

Sejumlah barang atau jasa yang diminta masyarakat pada tingkat dan dan jangka waktu tertentu.	Permintaan
Setiap kenaikan harga barang akan menambah kuantitas barang yang ditawarkan.	Penawaran
Jika harga suatu barang atau jasa naik, jumlah permintaan atas barang dan jasa tersebut akan turun.	Hukum Permintaan
Sejumlah barang atau jasa yang tersedia untuk ditawarkan pada tingkat harga dan jangka waktu tertentu.	Hukum Penawaran

Kurva apakah ini?

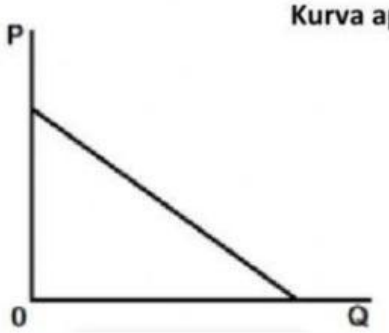

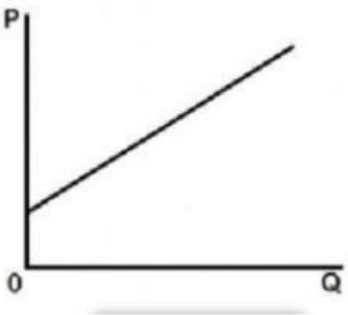

LIVEWORKSHEETS

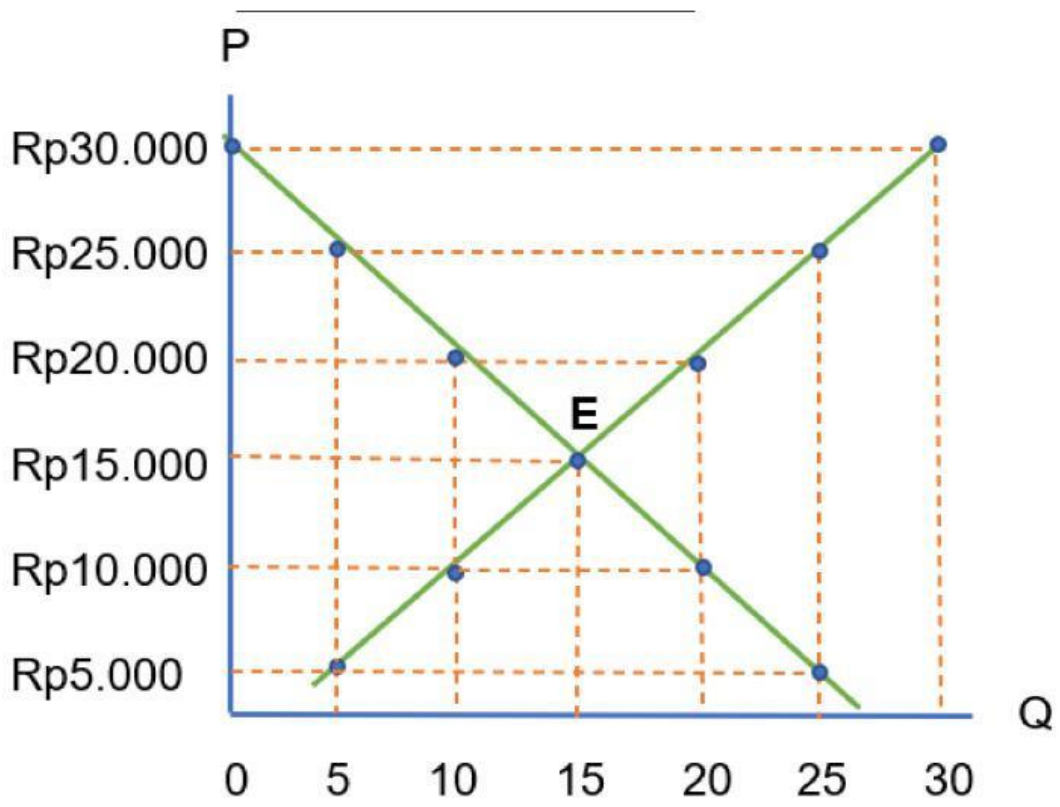

Harga keseimbangan pada kurva di atas adalah

LIVEWORKSHEETS

Berdasarkan wujudnya, contoh pasar di samping merupakan pasar…..

Berdasarkan wujudnya, contoh pasar di samping merupakan pasar…..

Berdasarkan jenis barangnya, contoh pasar di samping merupakan pasar…..

Berdasarkan jenis barangnya, contoh pasar di samping merupakan pasar…..

Berdasarkan waktu penyelenggaraannya, Pasar Sekaten merupakan pasar…..

LIVEWORKSHEETS