## *Lembar Kerja Peserta Didik*
## *Diskusi kelompok*

Nama kelompok : _____

Nama anggota : _____

Hari/ Tgl : _____

Tema : **Klasifikasi Peta, fungsi dan tujuan peta**

Kerjakan soal berikut ini secara kelompok dan penuh kejujuran!

1. Klasifikasikan jenis peta umum berikut !

Peta 1

http://sekolahmandiri.blogspot.com/2012/07/mengenal-peta-rupa-bumi-sc-16-18.html

Peta 2

https://peta-kota.blogspot.com/2011/06/peta-jawa-tengah.html

Peta 3

https://www.ilmuiana.com/2019/08/peta-dunia-hd-2019.html

| | |
|---|---|
| Peta 1 Termasuk Klasifikasi Peta Umum Apa? Berikan Penjelasan | |
| Peta 2 Termasuk Klasifikasi Peta Umum Apa? Berikan Penjelasan | |
| Peta 3Termasuk Klasifikasi Peta Umum Apa? Berikan Penjelasan | |

LIVEWORKSHEETS

2. Klasifikasikan jenis peta berikut menurut skalanya

Peta 1

*Peta Kepadatan Penduduk Indonesia 2010*

https://nurainins.blogspot.com/2019/02/peta-persebaran-kepadatan-penduduk-di.html

PETA 2

BOPUNCUR NLP 1209-1415 Skala 1: 10.000

https://tanahair.indonesia.go.id/portal-web/downloadpetacetak

PETA 3

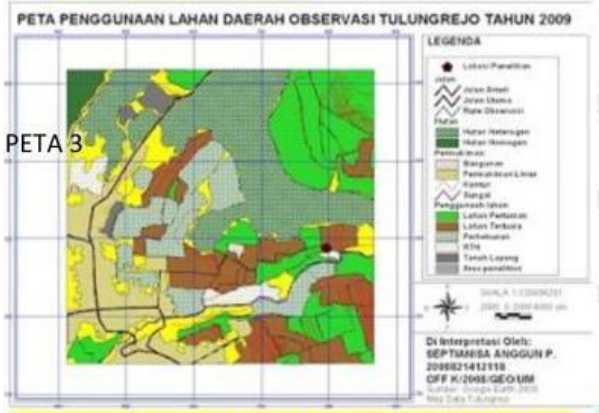


https://plannersoonbeurbandesign.wordpress.com/2016/02/03/peta/

PETA 4

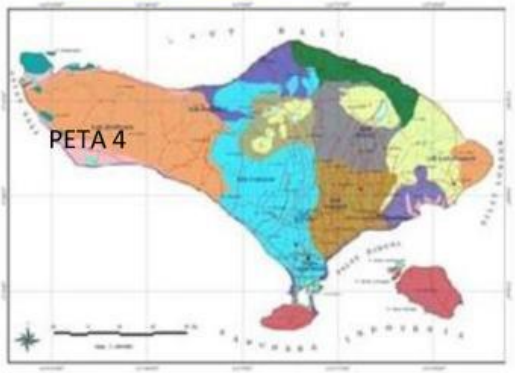

*Skala 1: 5000.000*

https://sumberbelajar.belajar.kemdikbud.go.id/sumberbelajar/tampil/Perbandingan-Senilai-Kelas-2009/konten3.html

| | |
|---|---|
| Peta 1 Termasuk Klasifikasi Peta Menurut Skala apa? Berikan Penjelasan | |
| Peta 2 Termasuk Klasifikasi Peta Menurut Skala apa? Berikan Penjelasan | |
| Peta 3 Termasuk Klasifikasi Peta Menurut Skala apa? Berikan Penjelasan | |
| Peta 4 Termasuk Klasifikasi Peta Menurut Skala apa? Berikan Penjelasan | |

LIVEWORKSHEETS

3. Klasifikasikan jenis peta berikut menurut isinya

https://www.poligrabs.com/post/ini-yang-perlu-kamu-ketahui-sebelum-merancang-infografis-peta

| | |
|---|---|
| Peta 1 Termasuk jenis peta menurut isi nya apa ? Berikan Penjelasan | |
| Peta 2 Termasuk jenis peta menurut isi nya apa ? Berikan Penjelasan | |

4. Klasifikasikan jenis peta berdasarkan sifatnya !

jalur penerbangan di indonesia – sumber buku siswa kelas v sd/mi

https://gurune.net/bandara-bandara-dan-lapangan-udara-di-indonesia/

https://anamsetiakukbm.wordpress.com/2015/01/18/jalur-gunung-api-indonesia/

| | |
|---|---|
| Peta 1 Termasuk jenis peta menurut sifat nya apa ? Berikan Penjelasan | |
| Peta 2 Termasuk jenis peta menurut Sifat nya apa ? Berikan Penjelasan | |

LIVEWORKSHEETS

https://ilmugeografi.com/kartografi/peta-geologi

*Peta Kepadatan Penduduk Indonesia 2010*

https://nurainins.blogspot.com/2019/02/peta-persebaran-kepadatan-penduduk-di.html

| | |
|---|---|
| Peta 3 Termasuk jenis peta menurut sifat nya apa ? Berikan Penjelasan | |
| Peta 4 Termasuk jenis peta menurut Sifat nya apa ? Berikan Penjelasan | |

5. Tuliskan nama komponen peta sesuai nomor pda peta berikut ini !

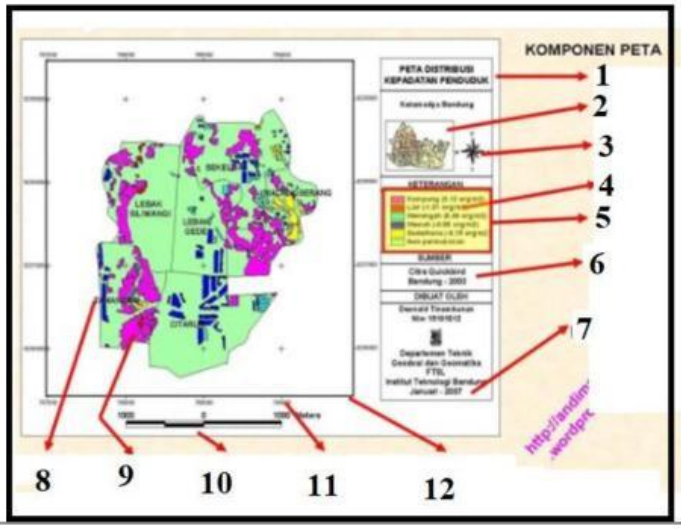


| |
|---|
| |

LIVEWORKSHEETS

6. Deskripsikan masing masing 3 tujuan dan fungsi peta !

| |
|---|
| |
| |
| |

LIVEWORKSHEETS