Luyện tập

1 Số ?

a) 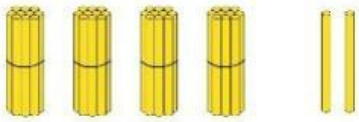

42 gồm **4** chục và **2** đơn vị.

b)

36 gồm ? chục và ? đơn vị.

c) 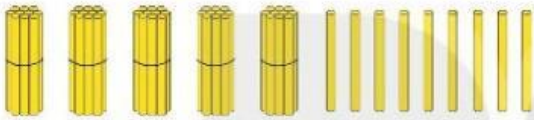

? gồm ? chục và ? đơn vị.

d)

? gồm ? chục và ? đơn vị.

KẾT NỐI TRI THỨC
VỚI CUỘC SỐNG

2 Số ?

a)

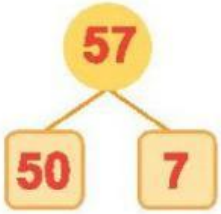

57 gồm ? chục và ? đơn vị.

b)

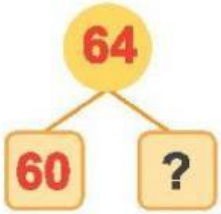

? gồm ? chục và ? đơn vị.

LIVEWORKSHEETS

3 Tìm hình thích hợp với chim cánh cụt và ô chữ.

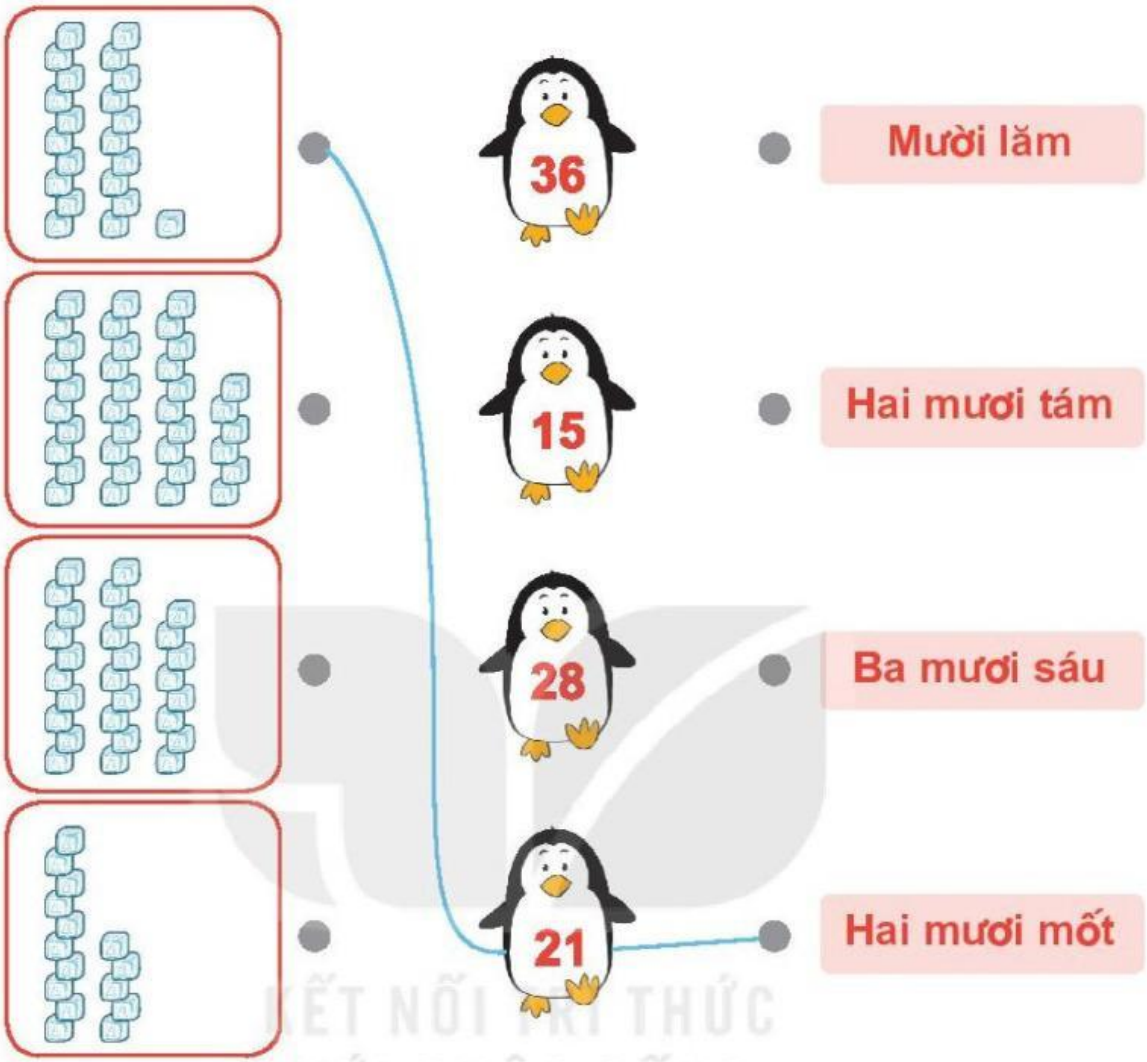

KẾT NỐI TRI THỨC
VỚI CUỘC SỐNG

4 Quan sát tranh.

a) Tìm các số có một chữ số.

b) Tìm các số tròn chục.



LIVEWORKSHEETS