Unitats de massa: kg

1 quilo

mig quilo

un quart de quilo

1. Observa i escriu les següents equivalències.

☐ **kg**

☐ **kg**

☐ **kg**

2. Quina és la fruita més pesada?



La síndria

La taronja

La maduixa

El plàtan



La pruna

El raïm

LIVEWORKSHEETS

3. Quant pesa això?

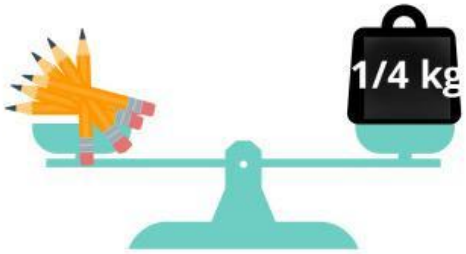

Els llapis pesen

La nina pesa

La pokeball pesa

El Bulbasour pesa

El Charizard pesa

LIVEWORKSHEETS