E. M. JOSÉ MAURO DE VASCONCELOS

Professora: Ana Paula Turma: 1.302

Clique nesse simbolo para ouvir

- Paulo trabalha no zoológico. Ele cuida de vários animais.
- Vamos ajudá-lo a separar as quantidades de cada espécie de animais?

- Escreva a quantidade de cada animal no quadro ao lado:

					
elefante	zebra	macaco	jacaré	leão	arara



- Agora responda as perguntas:
- Que animal aparece mais nessa cena? ____
- Que animal aparece menos nessa cena? ____
- Quantos macacos têm a mais que leões? ____
- Quantoas zebras têm a menos do que araras? ____
- Quantos animais são ao todo? ____

- A formiga quer saber quantos alimentos ela pegou.
- Vamos ajudá-la?

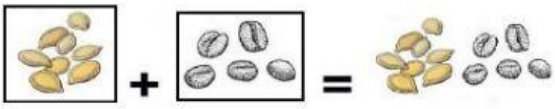

____ + ____ = ____

- Agora um desafio para você e seus familiares: quem consegue pegar mais?
- Vá até a cozinha com alguém da sua família, pegue uma mão de feijão ou outro tipo de gão, depois conte e descubra quem pegou a maior quantidade.
- Vamos lá? Anote em seu caderno o resultado.

LIVEWORKSHEETS

FORMAS GEOMÉTRICAS

Observe bem os objetos e arraste-os até a figura geométrica que representa o formato de cada objeto:

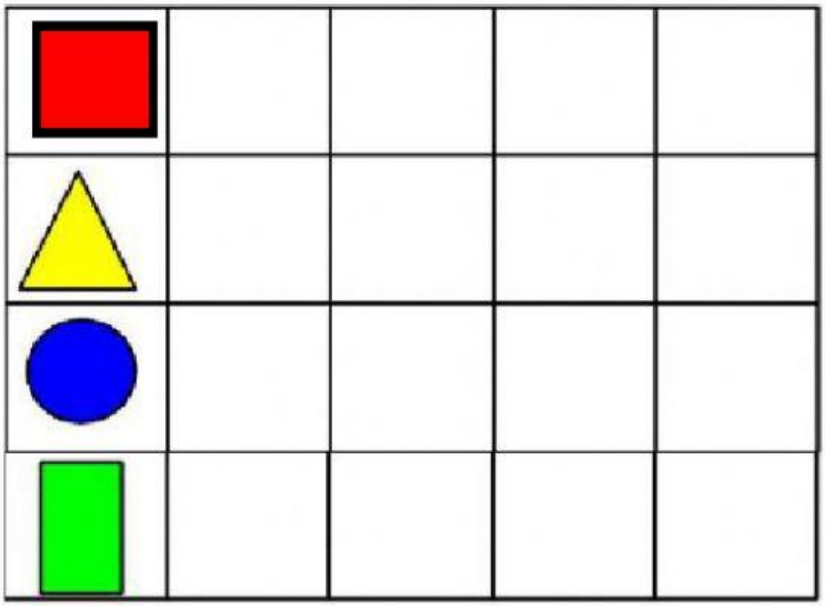

Profª: Ana Paula

LIVEWORKSHEETS