LKPD 1 MATERI PECAHAN SENILAI

NAMA :

KELAS :

Perhatikan video berikut ini

1. Pecahan yang senilai dengan $\frac{12}{10}$ adalah . . .

   A. $\frac{6}{5}$
   B. $\frac{4}{5}$
   C. $\frac{3}{5}$
   D. $\frac{2}{5}$

2. Pecahan $\frac{1}{3}$ adalah . . .

   A. 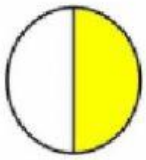

   C.

   B. 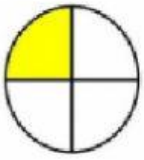

   D. 

3.

   Nilai Pecahan berikut adalah . . .

LIVEWORKSHEETS

4. Tariklah garis untuk nilai pecahan di bawah ini

$\frac{1}{3}$

$\frac{2}{5}$

$\frac{1}{4}$

$\frac{1}{2}$

$\frac{1}{5}$

5. Pilihlah jawaban yang cocok dari soa di bawah ini!

$\frac{2}{10}$ Senilai

$\frac{4}{8}$ Senilai

$\frac{3}{9}$ Senilai

$\frac{8}{12}$ Senilai

$\frac{1}{3}$

$\frac{1}{5}$

$\frac{2}{3}$

$\frac{1}{2}$

$\frac{1}{4}$

LIVEWORKSHEETS