1 Pažymėk S kiekvieno sodo vienodas sumas arba skirtumus.

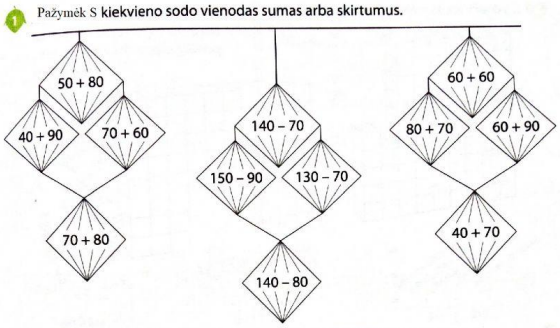

2

☐ + 80 + 40 = 140	☐ – 90 – 10 = 90
☐ + 70 + 50 = 190	☐ – 60 – 20 = 70
☐ + 90 + 30 = 200	☐ – 50 – 70 = 80
☐ + 60 + 70 = 180	☐ – 40 – 10 = 80

3 Apskaičiuok, suklijuok tinkamas korteles ir perskaitysi Lietuvos simbolių pavadinimus.

I 111	AS 124	H 172	VĖ 151
T 114	N 121	IA 102	M 132
V 100	V 192	S 126	Y 104
L 175	A 123		I 130

+ 67 / 33	+ 48 / 56	+ 39 / 75	+ 83 / 47	+ 68 / 58
+ 94 / 78	+ 36 / 75	+ 55 / 77	+ 43 / 78	+ 29 / 95
+ 83 / 68	+ 96 / 79	+ 54 / 48	+ 95 / 97	+ 75 / 48

4. Apskaičiuok, kiek kainuoja viena dūdelė.

po 9 Eur po 12 Eur po ☐ Eur

4 · ☐ + 3 · ☐ + 5 · ☐ = 102 (Eur)

5.

+ 146	+ 268	+ 357	+ 198	+ 526	+ 248	+ 367
421	743	536	726	702	1000	610

6. Padėk robotams suskaičiuoti.

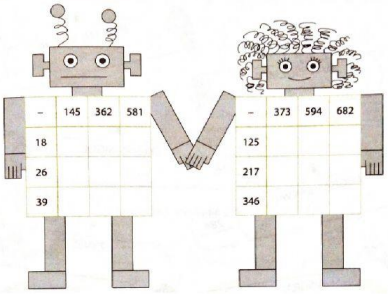

–	145	362	581
18			
26			
39			

–	373	594	682
125			
217			
346			

7. Robotas per dieną turi supakuoti 500 dėžių. Iki pietų jis supakavo 123 dėžes, o po pietų – 348. Kiek dėžių robotas nespėjo supakuoti? (Parašyk tik veiksmą)

8. Surink kriaukleles.



9.

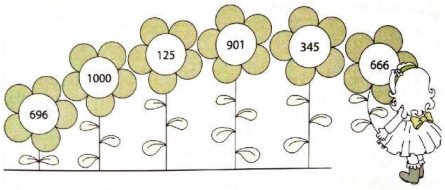

- Apskaičiuok antros ir šeštos gėlės skaičių skirtumą.
- Apskaičiuok, kiek didesnis ketvirtos gėlės skaičius už pirmosios skaičių.
- Iš pirmos ir trečios gėlės skaičių sumos atimk penktos gėlės skaičių.

LIVEWORKSHEETS