Praktis 2

Nama: _____ Tarikh: _____

Bab 2

Kedudukan

Hal. Buku Teks: 12 – 23

BAHAGIAN A

Jawab **semua** *soalan.*

1. Maklumat berikut berkaitan dengan kedudukan dua tempat.

> Kilang baju terletak di sebelah kiri rumah Cindy.

Rumah Cindy digunakan sebagai _____ untuk menentukan kedudukan kilang baju.

A titik tengah
B titik rujukan
C titik persilangan
D garis mendatar

2. Antara berikut, yang manakah benar tentang kedudukan relatif?

I Berdasarkan titik rujukan
II Menggunakan lajur dan baris
III Dinyatakan dalam bentuk koordinat
IV Ditentukan dengan menggunakan perkataan

A I dan II
B I dan IV
C II dan III
D III dan IV

Soalan 3 dan 4 berdasarkan Peta 1 di bawah.

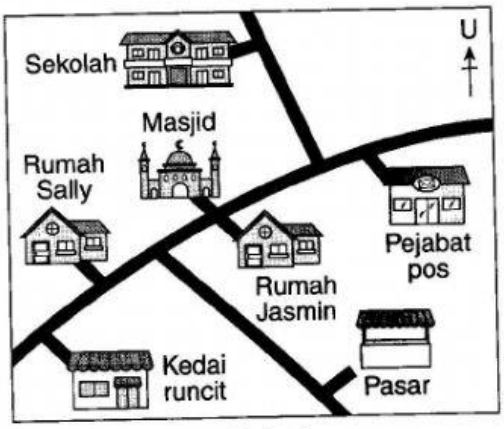

Peta 1

3. Objek yang terletak di hadapan masjid ialah

A sekolah.
B kedai runcit.
C rumah Sally.
D rumah Jasmin.

4. Antara berikut, yang manakah benar tentang kedudukan sekolah?

A Terletak di belakang masjid
B Terletak di sebelah kiri pasar
C Terletak di hadapan rumah Sally
D Terletak di sebelah kanan pejabat pos

5. Apakah latitud yang dilukis di tengah-tengah glob dan diberi nilai (°)?

A Garisan Jadi
B Garisan Artik
C Garisan Sartan
D Garisan Khatulistiwa

6. Berdasarkan Rajah 1, garisan yang manakah ialah Garisan Sartan?

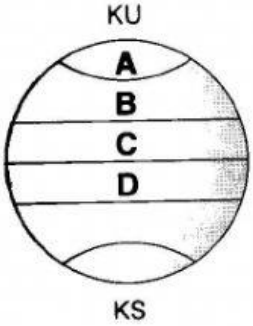

Rajah 1

7. Antara berikut, yang manakah benar mengenai latitud?

I Garisan yang dilukis secara mendatar

LIVEWORKSHEETS

II Garisan yang dilukis dari timur ke barat
III Garisan yang terpendek ialah Garisan Meridian Pangkal
IV Garisan yang terpanjang ialah Garisan Khatulistiwa

A I dan II **C** II dan III
B I dan IV **D** III dan IV

8. Antara berikut, pasangan yang manakah betul?

	Latitud Utama	Sudut
A	Garisan Antartik	0°
B	Garisan Khatulistiwa	$23\frac{1}{2}$°U
C	Garisan Artik	$66\frac{1}{2}$°S
D	Garisan Jadi	$23\frac{1}{2}$°S

9. Garisan yang manakah berkaitan dengan maklumat yang berikut?

- Bernilai 180°T/B
- Berbentuk bengkang-bengkok

A Garisan Khatulistiwa
B Garisan Meridian Pangkal
C Garisan Meridian Greenwich
D Garisan Tarikh Antarabangsa

10. Gabungan Garisan Meridian Pangkal dan Garisan Tarikh Antarabangsa boleh membentuk sebuah
A peta.
B awan.
C bulatan.
D semi bulatan.

11. Apakah kegunaan persilangan latitud dan longitud di atas glob dan atlas?
A Menentukan arah di antara dua tempat
B Menentukan jarak di antara dua tempat
C Menentukan kedudukan sesuatu tempat
D Menentukan waktu tempatan sesuatu tempat

12. Berapakah nilai darjah bagi Garisan Meridian Greenwich?
A 0° **C** $66\frac{1}{2}$°S
B $23\frac{1}{2}$°U **D** 180°T/B

Soalan 13 dan 14 berdasarkan Rajah 2 di bawah.

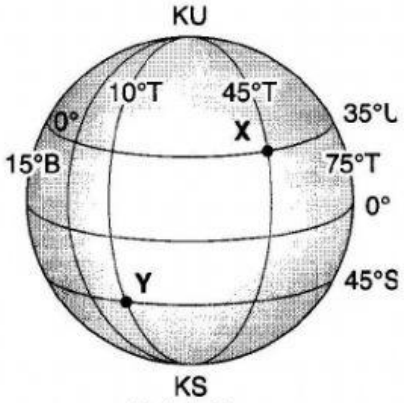

Rajah 2

13. Apakah kedudukan titik **X**?
A 0° 45°T **C** 45°T 0°
B 35°U 45°T **D** 75°T 35°U

14. Apakah kedudukan titik **Y**?
A 0° 10°T **C** 15°B 10°T
B 10°T 45°S **D** 45°S 10°T

15. Peta 2 menunjukkan kedudukan bandar utama di Asia Tenggara.

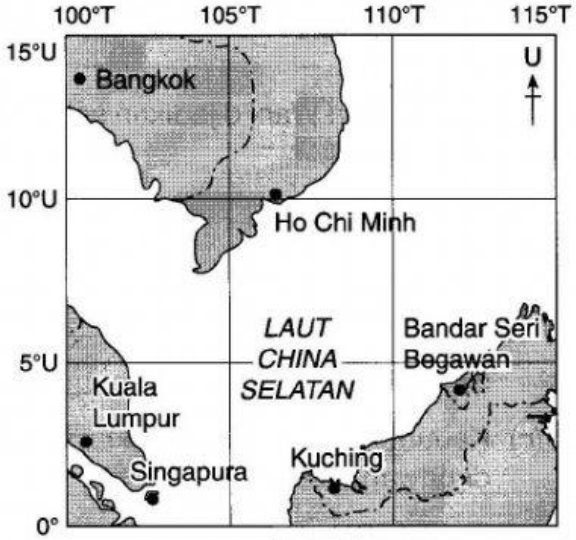

Peta 2

Bandar yang manakah terletak di 10°U 107°T?
A Bangkok **C** Kuala Lumpur
B Singapura **D** Ho Chi Minh

LIVEWORKSHEETS

BAHAGIAN B

Jawab **semua** *soalan.*

Soalan 1 *berdasarkan* Rajah 3 *yang menunjukkan kedudukan murid di dalam kelas Tingkatan 1 Kuning.*

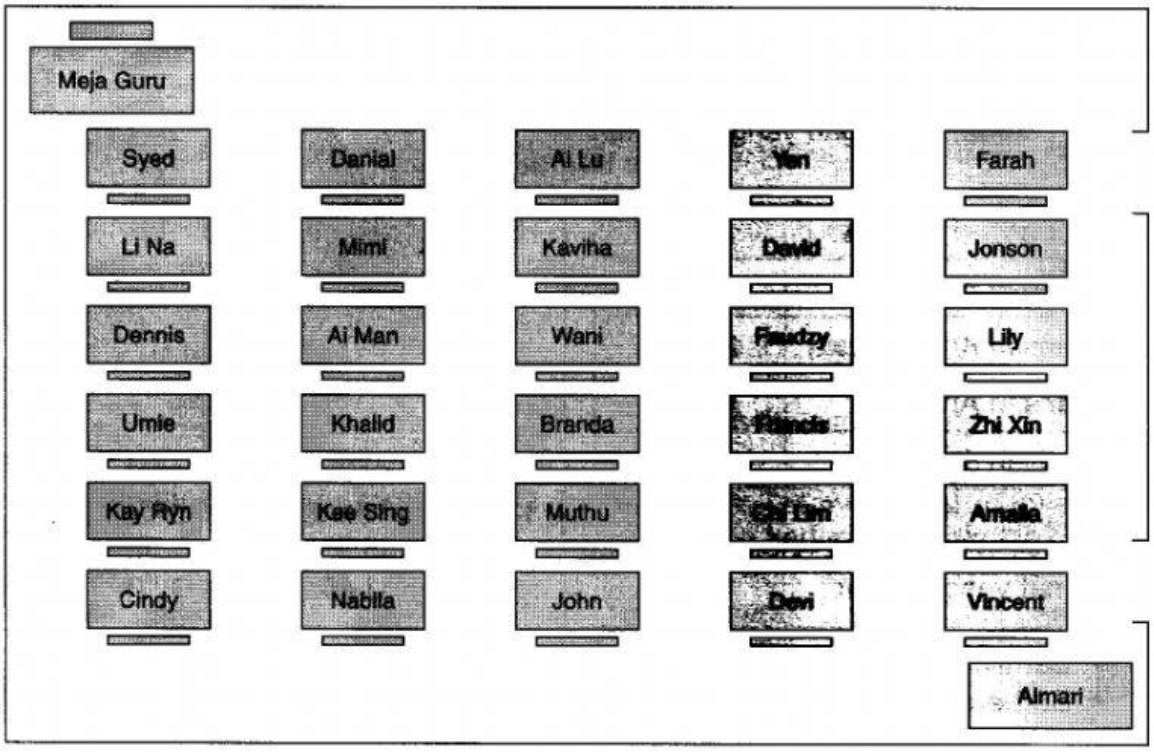

Rajah 3

1. (a) Nyatakan **dua** orang murid yang duduk di belakang Zhi Xin.

(i) _____

(ii) _____

(b) Kedudukan Wani dijadikan sebagai titik rujukan, nyatakan kedudukan murid-murid di bawah. SP 1.2.1

(i) Kaviha : _____

(ii) Branda : _____

(iii) Faudzy : _____

(iv) Ai Man : _____

(c) Kedudukan Chi Lim dijadikan sebagai titik rujukan, nyatakan kedudukan murid-murid di bawah. SP 1.2.1

(i) Kee Sing : _____

(ii) Devi : _____

(iii) Francis : _____

(iv) Amalia : _____

LIVEWORKSHEETS

Soalan 2 *berdasarkan* Rajah 4.

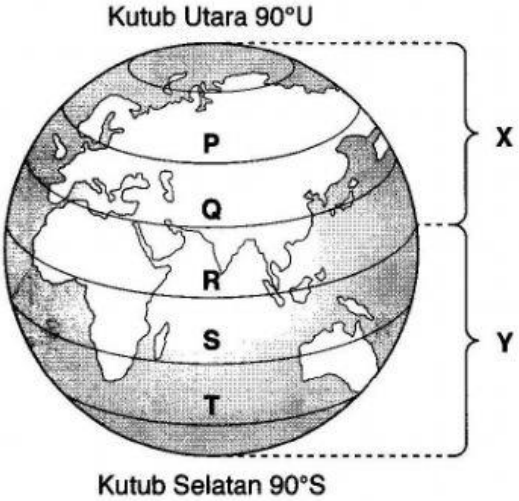

Rajah 4

2. (a) Namakan latitud-latitud utama dalam Rajah 4.

P : _____

Q : _____

R : _____

S : _____

T : _____

(b) Nyatakan bahagian-bahagian bumi dalam Rajah 4.

X : _____

Y : _____

(c) Terangkan ciri-ciri latitud **R** dalam Rajah 4.

_____

_____

_____

_____

_____

_____

_____

Sudut Nota

- Oleh kerana bentuk glob adalah sfera, jadi garisan-garisan yang dilukis pada permukaan glob adalah melengkung. Manakala pada atlas, garisan-garisan dilukis secara menegak dan melintang dengan lurus.

LIVEWORKSHEETS

Soalan 3 *berdasarkan* Peta 3.

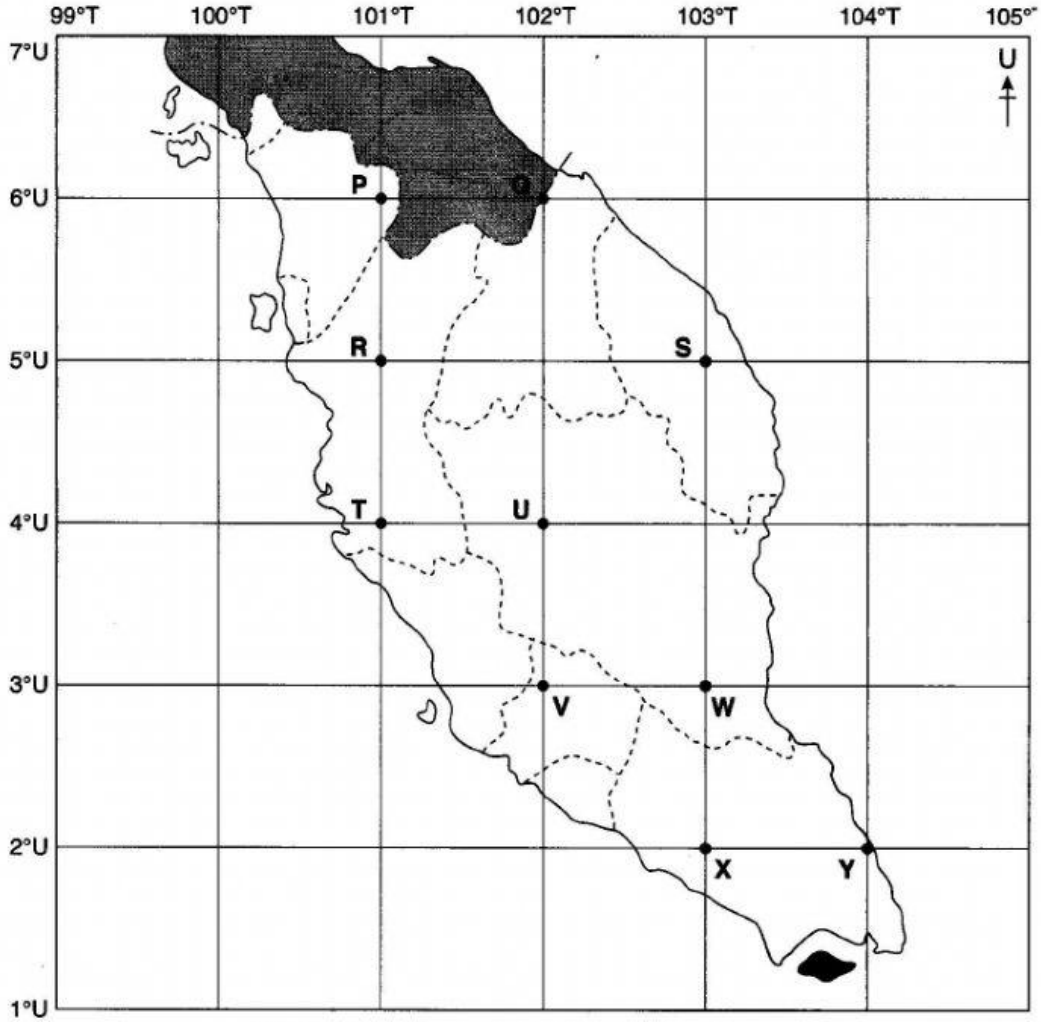

Peta 3: SEMENANJUNG MALAYSIA

3. (a) Nyatakan latitud bagi tempat-tempat dalam Peta 3.

P : _____

U : _____

X : _____

(b) Nyatakan kedudukan bagi tempat-tempat dalam Peta 3. SP 1.2.2

Q : _____

S : _____

T : _____

V : _____

Y : _____

(c) Mengapakah semasa menentukan kedudukan sesuatu tempat, latitud perlu dinyatakan terlebih dahulu sebelum menyatakan longitud? KBAT *Menilai*

_____

LIVEWORKSHEETS