LKPD

(Lembar Kerja Peserta Didik)

IPAS

BAB 3 : MAGNET

Nama :

LIVEWORKSHEETS

A. **Perhatikan video di bawah ini!**

B. **Kerjakan soal di bawah ini !**

1. .... Merupakan magnet yang berbentuk seperti batang atau seperti balok atau kubus.
   a. Magnet ladam
   b. Magnet cincin
   c. Magnet jarum
   d. Magnet batang
2. Logam yang mampu menarik logam lain terutama besi dan baja disebut ....
   a. Magnet
   b. Emas
   c. Perunggu
   d. Perak
3. Yang *bukan* cara menghilangkan sifat magnet adalah ....
   a. Dipatahkan
   b. Dipanaskan
   c. Dialiri arus bolak-balik
   d. Dihancurkan

LIVEWORKSHEETS

4. Gaya magnet terkuat terletak pada ....
   a. Seluruh bagian magnet
   b. Ujung kedua kutub magnet
   c. Pertengahan magnet
   d. Bagian bawah magnet

5.

   Gambar magnet di samping adalah ....
   a. Magnet batang
   b. Magnet jarum
   c. Magnet cincin
   d. Magnet ladam

6. Berbentuk bulat dan pipih seperti silinder adalah magnet ....
   a. Magnet ladam
   b. Magnet batang
   c. Magnet silinder
   d. Magnet jarum

7. 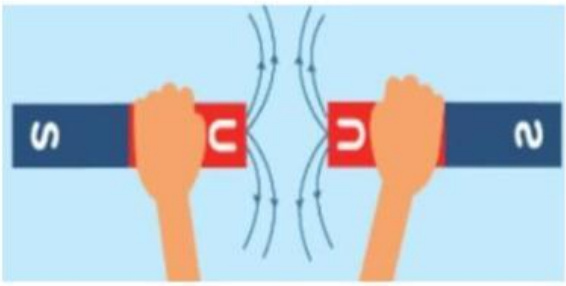

   Gambar di atas menunjukkan bahwa ....
   a. Kutub sesama tarik-menarik
   b. Kutub tidak sesama tolak-menolak
   c. Kutub tidak sesama tarik-menarik
   d. Kutub sesama tolak-menolak

LIVEWORKSHEETS

8. Contoh penggunaan magnet dalam kehidupan sehari-hari adalah ….

a.

b.

c.

d.

9. Dibawah ini yang *bukan* contoh penggunaan magnet dalam kehidupan sehari-hari adalah ….
   a. Kulkas
   b. Kompas
   c. Jam dinding
   d. Bel listrik
10. Salah satu sifat gaya magnet adalah dapat menembus benda ditunjukkan pada gambar ….

a. 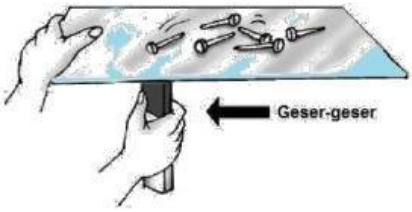

b.

c. 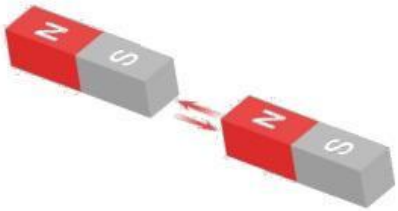

d. 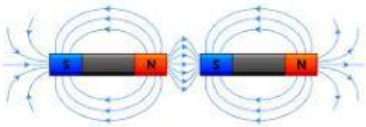

LIVEWORKSHEETS