ТАБЛИЧНЕ ВІДНІМАННЯ В МЕЖАХ 10

1. Склади й запиши **вирази. Обчисли їх. Яких менше? Чому?**

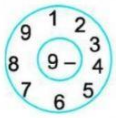

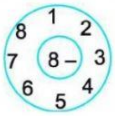

2. Скільки не вистачає до 10?

	2 + 8 = 10	10 – 2 = 8
	4 + □ = 10	10 – 4 = □
	□ + □ = 10	10 – □ = □
	□ + □ = □	10 – □ = □

3. Обчисли лише різниці.

7 – 5	9 – 5	2 + 4	8 + 1
6 + 4	10 – 3	5 – 5	6 – 5

4. У зоопарку 4 леви, 5 ведмедів, а лисиць стільки, скільки левів і ведмедів разом. Скільки лисиць у зоопарку?



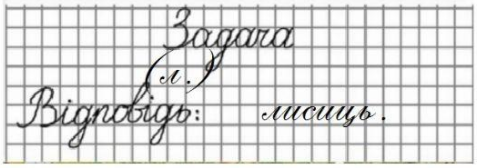

5. З «родини» чисел 4, 9, 5 утвори рівності.

□+□=□ □+□=□ □–□=□ □–□=□

LIVEWORKSHEETS