LKPD

Mengidentifikasi hubungan sudut dan sisi dari segitiga siku-siku

Setelah Mempelajari ini, apa yang ingin anda kuasai dari materi ini

YUk Simak Video Berikut

LIVEWORKSHEETS

LKPD

Mengidentifikasi hubungan sudut dan sisi dari segitiga siku-siku

1. Segitiga siku-siku adalah segitiga yang salah satu sudutnya mempunyai kemiringan ?

2. Berapa Keseluruhan jumlah sudut derajat yang dimiliki oleh sebuah segitiga ?

3. Manakah yang termasuk Segitiga Siku-siku ?

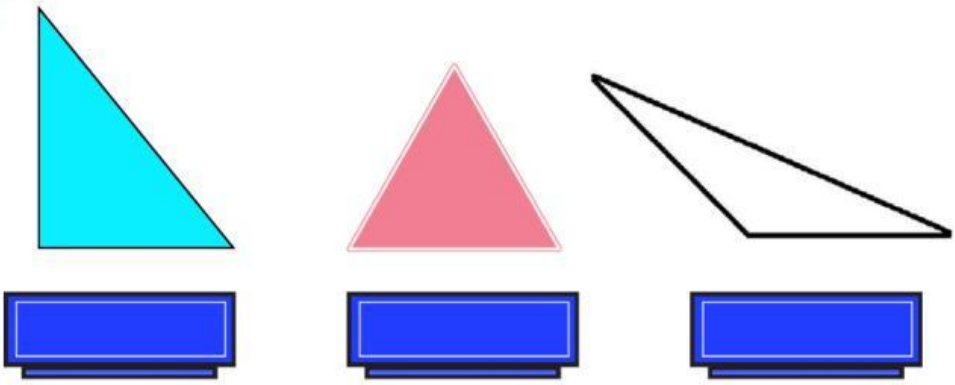

4. Simbol sudut elevasi (α) Pada segitiga siku-siku Bertujuan Untuk ?

LIVEWORKSHEETS

LKPD

Mengidentifikasi hubungan sudut dan sisi dari segitiga siku-siku

5

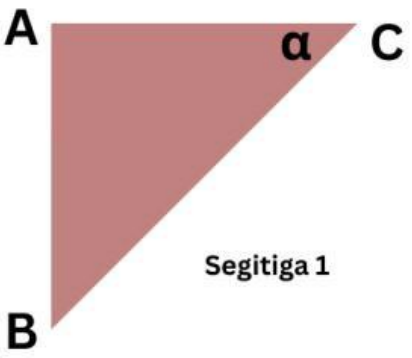

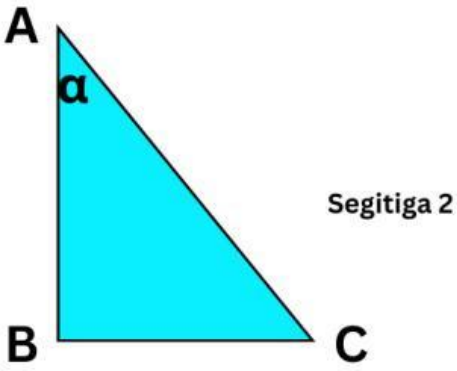

Segitiga 1	Segitiga 2
AC =	AC =
BC =	BC =
AB =	AB =

6

Cobalah membuat kesimpulan individu sesuai dengan pekerjaan masing-masing yang telah di kerjakan

LIVEWORKSHEETS