CONCEPTOS 7



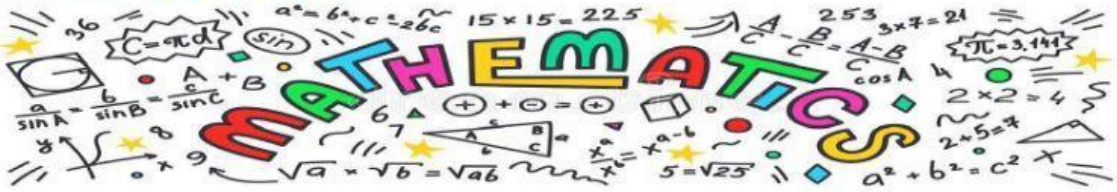

1. Expresa en forma de fracción y en forma decimal



NÚMERO	FRACCIÓN	FORMA DECIMAL
4 décimas	—	
84 centésimas	—	
345 milésimas	—	
9 décimas	—	
19 centésimas	—	
27 milésimas	—	
7 décimas	—	
5 centésimas	—	
9 milésimas	—	
2,45 centésimas	—	

2. Completa.

- 3 unidades y 5 décimas = ____ décimas
- 7 unidades y 9 centésimas = ____ centésimas
- 2 unidades y 6 milésimas = ____ milésimas
- 9 décimas y 8 milésimas = ____ milésimas
- 6 centésimas y 3 milésimas = ____ milésimas

LIVEWORKSHEETS

3. Escribe > o < según corresponda.

- 45,78 ◯ 46,6
- 15,78 ◯ 15,8
- 8,659 ◯ 8,72
- 8,67 ◯ 8,76
- 67,32 ◯ 67,331
- 4,098 ◯ 4,09
- 3,45 ◯ 4
- 25,1 ◯ 25,006
- 3,12 ◯ 3,122

4. Aproxima cada número decimal al orden indicado.

Número	A las unidades	Número	A las décimas	Número	A las centésimas
6.7		4.96		6.312	
29.44		14.15		9.521	
12.71		8.762		7.685	
36.892		4.199		1.398	

5. Expresa cada fracción en forma de porcentaje y escribe también su número decimal asociado.

Fracción	Porcentaje	Número decimal asociado
$\frac{45}{100}$	%	
$\frac{8}{100}$	%	
$\frac{12}{100}$	%	
$\frac{70}{100}$	%	

6. Calcula los siguientes porcentajes.

El 6 % de 250 ☐ El 25 % de 320 ☐ El 60 % de 350 ☐

LIVEWORKSHEETS