Nama :

Kelas :

SOAL EVALUASI

1. Perhatikan diagram berikut!

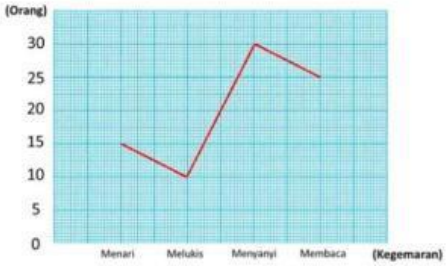

   Diagram di atas menunjukkan kegemaran siswa kelas 4, 5, dan 6 SD Harapan.

   Banyaknya siswa yang gemar membaca yaitu …

2. Perhatikan diagram berikut!

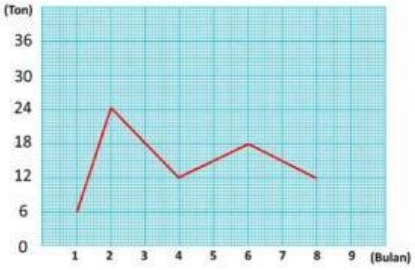

   Diagram garis tersebut menunjukkan penjualan jeruk oleh PT Makmur Sejahtera.

   Penjualan terbanyak terjadi pada bulan ke …

3. Perhatikan diagram berikut!

   Diagram garis diatas menunjukkan banyaknya pasien yang datang ke Klinik Permata Bunda.

   Selisih pasien yang datang pada hari selasa dan hari sabtu yaitu …

LIVEWORKSHEETS

4. Perhatikan diagram berikut!

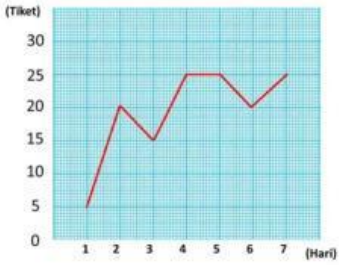

Diagram diatas menunjukkan penjualan tiket pertandingan sepak bola.

Kenaikan penjualan tiket yang drastis terjadi pada hari …

5. Perhatikan diagram berikut!

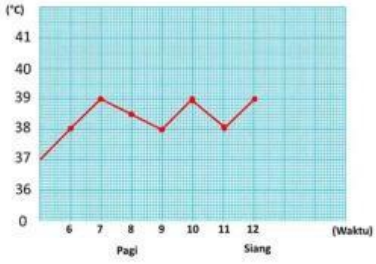

Diagram diatas menunjukkan suhu badan Adit. Suhu badan Adit yang tertinggi yaitu …

LIVEWORKSHEETS