Смена времени года

ФИО: _____

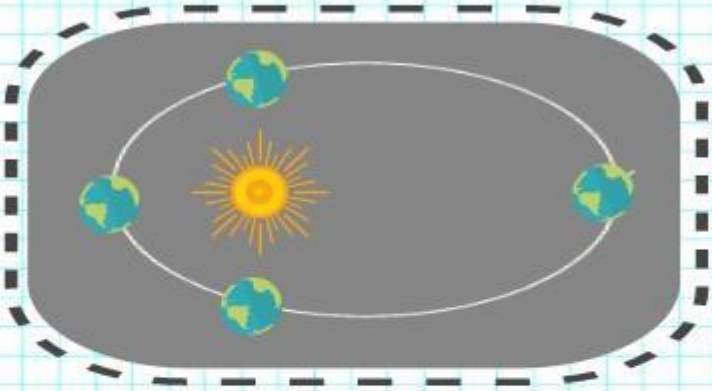

Орбита Земли имеет форму _____

Самая удаленная от Солнца точка - _____

Самая ближайшая к Солнцу точка - _____

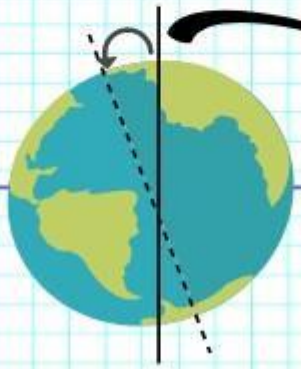

Основная причина смены времен года – _____

Ось указывает на то, что наша планета наклонена под углом около _____ градусов для положения на орбитальной плоскости.

Лето Зима Экватор Земная ось

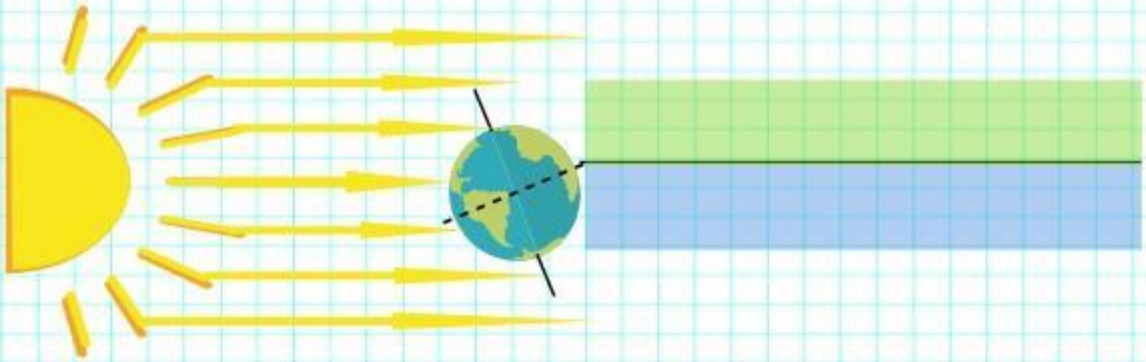

Согласно _____ **подходу** , каждый сезон состоит из трех месяцев и начинается с _____ дня _____ месяца: __ марта, __ июня, __ сентября, __ декабря.

Согласно _____ **подходу** , каждый сезон начинается либо в день _____ (когда Солнце на небе достигает самой северной или самой южной точки), либо в день _____ (когда Солнце пересекает небесный экватор).

Времена года в Южном полушарии

- Весна: **19 марта**
- Лето: **20 июня**
- Осень: **22 сентября**
- Зима: **21 декабря**

Времена года в Северном полушарии

- Весна: **19 марта**
- Лето: **20 июня**
- Осень: **22 сентября**
- Зима: **21 декабря**

LIVEWORKSHEETS