LKPD MATEMATIKA BANGUN RUANG

Nama: _____

Kelas: _____

LIVEWORKSHEETS

Lembar Kerja Peserta Didik

Mata Pelajaran: Matematika

Kelas: V (Lima)

Materi Pokok: Sifat-sifat bangun ruang

Petunjuk kegiatan:

1. Berdoalah sebelum mengerjakan
2. Bacalah petunjuk pada setiap kegiatan
3. Tulislah identitas diri pada LKPD
4. Simaklah video dibawah ini sebelum mengerjakan
5. Jawablah pertanyaan sesuai dengan petunjuk yang ditulis

LIVEWORKSHEETS

Kegiatan 1

Beri nama bangun ruang dibawah ini sesuai dengan pilihan yang disediakan!

Prisma Segi Tiga	Balok	Limas Segi Tiga	Tabung
Bola	Kubus	Kerucut	Limas Segi Empat

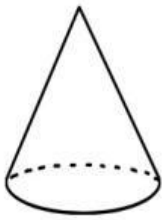

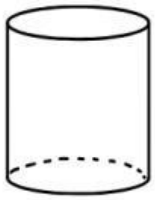

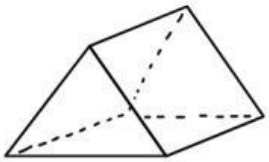

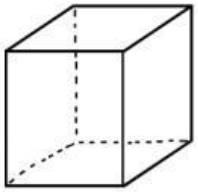

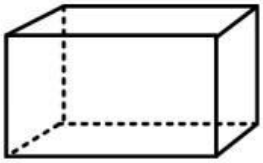

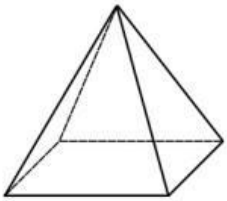

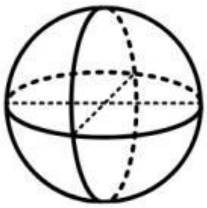

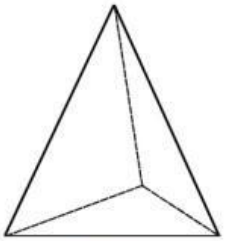

LIVEWORKSHEETS

Kegiatan 2

Tariklah garis sesuai dengan sigat-sifat bangun ruang di bawah ini!

Memiliki 6 rusuk, 3 sisi berbentuk segitiga, dan 4 titik sudut.	Balok
Memiliki 12 rusuk, 6 sisi berbentuk persegi dan 3 pasang bidang sejajarnya sama dan sebangun,	Limas Segi Empat
Memiliki 2 sisi, yaitu sisi alas berbentuk lingkaran dan selimut,memiliki 1 rusuk dan tidak memiliki titik sudut, tetapi memiliki titik puncak.	Kerucut
Memiliki 3 sisi berbentu persegi dan 2 sisi berbentuk segitiga, serta tidak memiliki diagonal ruang.	Limas Segi Tiga
Memiliki 12 rusuk, 6 sisi berbentuk persegi panjang, dan memiliki 3 pasang bidang sejajar.	Tabung
Memiliki 3 sisi yaitu 2 sisi berbentuk ingkaran dan 1 sisi lengkung, memiliki 2 rusuk dan tidak memiliki titik sudut.	Kubus
Memiliki 5 sisi yang terdiiri atas 4 sisi berbentuk segitiga, 1 sisi berbentuk persegi panjang dan tidak memiliki diagonal ruang.	Prisma Segi Tiga

LIVEWORKSHEETS