მე-5 კლასის სადიაგნოსტიკო ტესტი მათემატიკაში

სახელი, გვარი _____

1) დაალაგე რიცხვები ზრდადობის მიხედვით: 17 612 765; 17 751 234; 23 181 231; 17 611 762.

2) დაამრგვალე რიცხვი ხაზგასმული თანრიგის სიზუსტით და დაასახელე ეს თანრიგი:
ა) 215 24<u>6</u> 870
ბ) 75 7<u>6</u>3 980 123

3) ა) დაასახელე წერტილები, რომლებიც მდებარეობენ წრფეზე: _____

ბ) დაასახელე წერტილები, რომლებიც არ მდებარეობენ წრფეზე: _____

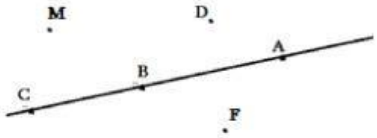

4) მოცემული ფიგურის ყოველი მომდევნო გვერდი 4 სმ-ით მეტია წინა გვერდზე. დაასახელე რა გეომეტრიული ფიგურაა ეს და იპოვე მისი სიგრძე.

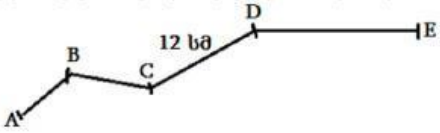

5) ანდრეა სკოლაში 8 სთ 20 წთ-ზე მივიდა და სკოლიდან 15 სთ 10 წთ-ზე წამოვიდა. რა დროის განმავლობაში იყოანდრეა სკოლაში?

6) გაამარტივე ცვლადიანი გამოსახულება და გამოთვალე მისი მნიშვნელობა:
22 455x + 11 350y + 545x + 650y, თუ x= 21 და y= 16

7) იპოვე უცნობი წევრი:

ა) 5x= 273 975

ბ) 75 432 + x = 456 761

გ) x : 17 = 369 123

დ) x – 12 799 = 765 987

ე) 2x + 54 672 = 125 676

ვ) 137 270 : (356 712- x) = 14

8) იპოვე x კუთხე:

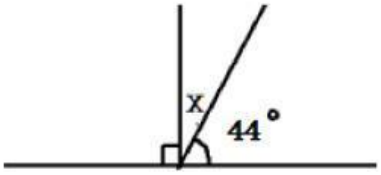

LIVEWORKSHEETS

9) დაასახელე სამკუთხედის ტიპი:

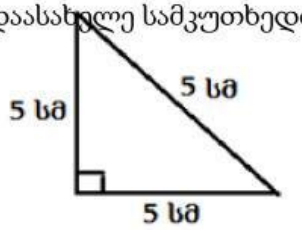

ა) კუთხეების მიხედვით: _____

ბ) გვერდების მიხედვით: _____

10) ბაზიდან 1-ელ დღეს გაიტანეს 256 185 კგ კარტოფილი. მე-2 დღეს 2-ჯერ მეტი, ვიდრე 1-ელ დღეს. მე-3 დღეს __ 4 009 კგ-ით ნაკლები, ვიდრე მე-2 დღეს. მეოთხე დღეს__იმდენი, რაც წინა 3 დღეს გაიტანეს ერთად. რამდენი კგ კარტოფილი გაუტანიათ ბაზიდან ოთხივე დღეს?

11) მოტოციკლეტისტმა 1-ელ დღეს გაიარა 576 კმ, რაც 4-ჯერ მეტია მე-2 დღეს გავლილ მანძილზე. რამდენი კმ გაიარა მოტოციკლეტისტმა ორივე დღეს?

12) იპოვე გამოსახულების მნიშვნელობა: $6^5 + 15\,709 \times 15 + 7^4 : 7 =$

LIVEWORKSHEETS