Lớn thầy Sĩ

VUI HỌC TOÁN

TOÁN 3

LỚP THẦY SĨ

THỬ THÁCH TUẦN 14

Nội dung: Thực hành và trải nghiệm với các đơn vị mi – li – mét, gam, mi – li – lít, độ C (tiết 2)
Luyện tập chung
Nhân số có ba chữ số với số có một chữ số

Câu 1 Chiều dài của con kiến (*như bức tranh*) là:



A. 1 cm **B.** 11 mm

C. 12 mm **D.** 15 mm

Câu 2 Kết quả của phép tính **108 ml** × **5** là:

A. 540 *l* **B.** 500 ml **C.** 540 ml **D.** 504 ml

Câu 3 Nhiệt độ ngoài trời (*như bức tranh*) lúc này khoảng:

A. 37 °C **B.** 40 °C

C. 35 °C **D.** 20 °C

Câu 4 Quả bí ngô cân nặng khoảng:

A. 3 g **B.** 30 g **C.** 300 g **D.** 3 kg

Câu 5 Anh Minh rót hết mật ong vừa thu hoạch được vào đầy 3 lọ, mỗi lọ 250 ml mật ong. Vậy lượng mật ong anh Minh thu hoạch được là:

A. 500 ml **B.** 750 ml **C.** 1 *l* **D.** 900 ml

Câu 6 Mỗi quả táo cân nặng 150 g. Mẹ mua 6 quả táo như vậy. Vậy mẹ đã mua:

A. 900 g táo **B.** 550 g táo **C.** 750 g táo **D.** 800 g táo

II. Phần tự luận.

Bài 1 Tính.

123	444	246	151	140
× 3	× 2	× 2	× 5	× 7

LIVEWORKSHEETS

Bài 2 Đặt tính rồi tính.

111 × 6	323 × 3	246 × 2	152 × 4	482 × 2
111 × 6 =	323 × 3 =	246 × 2 =	152 × 4 =	482 × 2 =

Bài 3 Tính.

26 mm + 38 mm − 19 mm = ☐

715 g − 270 g + 335 g = ☐

680 ml − 256 ml − 181 ml = ☐

100 mm × 7 = ☐

200 g × 4 = ☐

300 ml × 3 = ☐

Bài 4 Số?

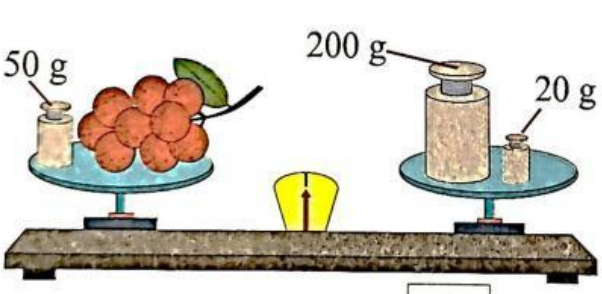

Chùm nhãn cân nặng ☐ g.

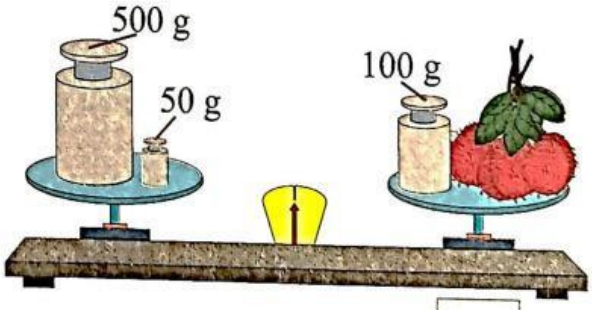

Chùm chôm chôm cân nặng ☐ g.

Bài 5 Điền vào chỗ trống.

120 g → × 2 → ☐ → × 3 → ☐

103 ml → × 4 → ☐ → × 2 → ☐

LIVEWORKSHEETS

Bài 6

Mẹ mua hai chai nước mắm. Chai nhỏ có 250 ml nước mắm. Lượng nước mắm có trong chai to gấp 2 lần chai nhỏ. Hỏi mẹ đã mua bao nhiêu mi-li-lít nước mắm?

Bài giải

A. Số lít nước mắm mẹ đã mua là: 400 mi – li – lít

B. Số lít nước mắm mẹ đã mua là: 500 mi – li - lít

C. Số lít nước mắm mẹ đã mua là: 700 mi – li - lít

D. Số lít nước mắm mẹ đã mua là: 750 mi – li - lít

Bài 7

Hôm qua, mẹ mua 2 túi đường, mỗi túi có 350 g và đổ hết lượng đường đó vào lọ. Hôm nay, mẹ lấy 250 g đường để làm bánh. Hỏi trong lọ còn lại bao nhiêu gam đường?

Bài giải

A. Số gam đường trong lọ còn lại là: 450 gam

B. Số gam đường trong lọ còn lại là: 550 gam

C. Số gam đường trong lọ còn lại là: 650 gam

D. Số gam đường trong lọ còn lại là: 750 gam

Bài 8

Để đàn kiến vượt qua dòng thác, 6 con kiến đã xếp thành cây cầu (*như bức tranh*). Mỗi con kiến dài 12 mm. Hỏi cây cầu dài bao nhiêu mi-li-mét?

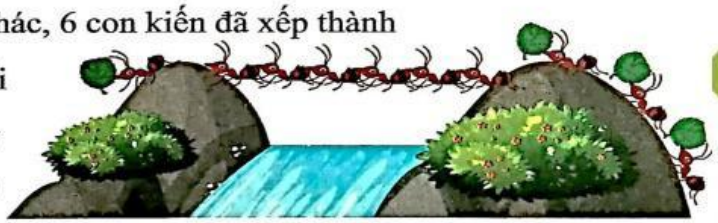

Bài giải

A. Số mi – li – mét cây cầu dài là: 52mm

B. Số mi – li – mét cây cầu dài là: 62mm

C. Số mi – li – mét cây cầu dài là: 72mm

D. Số mi – li – mét cây cầu dài là: 82mm

LIVEWORKSHEETS