Nombre: _____ Klasse 6____

EL MOVIMIENTO Y LA PALANCA

1.- Completa el siguiente cuadro; en la primera línea escribe las frases siguientes, en el espacio correcto.

F = fuerza R= resistencia PA= punto de apoyo o fulcro

La F está entre R y el PA	El PA está entre F y R	La R está entre el PA y F

En la segunda línea escribe Dibujo 1, en la columna que corresponda de acuerdo con el punto de apoyo (PA), la resistencia (R) y la fuerza (F):

Primer género	Segundo género	Tercer género

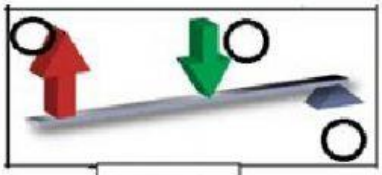

Dibujo 1

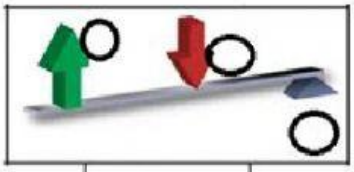

Dibujo 2

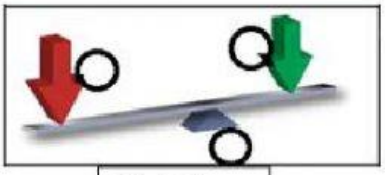

Dibujo 3

2.- De acuerdo con el lugar donde se encuentra el punto de apoyo, la fuerza y la resistencia, identifica las palancas escribiendo cuál es de primer género, cuál de segundo género y cuál de tercer género

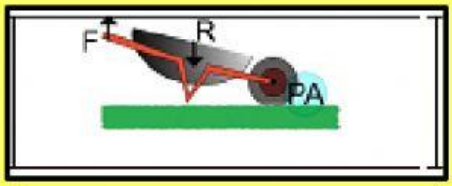

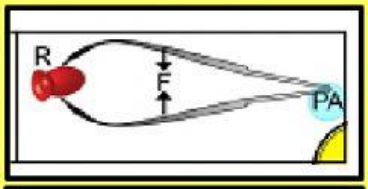

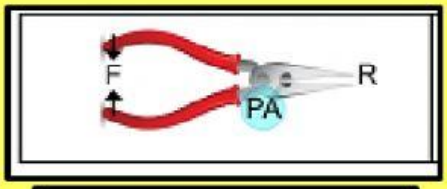

LIVEWORKSHEETS