INSTITUTO ANTONIO NARIÑO
FORMACIÓN INTEGRAL CON EXCELENCIA ACADÉMICA

QUIZ ESCRITO
AREA DE CIENCIAS NATURALES, EDUCACION AMBIENTAL, TECNOLOGIA Y SOCIEDAD.
CIENCIAS NATURALES
GRADO 1°___ PERIODO 1

V4

ESTUDIANTE:		**FECHA:**	
INDICADOR 1.1: Diferenciar los seres vivos e inertes en su relación con el entorno. **INDICADOR 2.1:** Resolver preguntas sencillas sobre las características de la naturaleza y sus componentes a partir de la experiencia directa. **VALOR: 10%**		**CRITERIOS:** Manejo de conceptos, Relación entre conceptos, Capacidad para interpretar gráfica.	**ESCALA COLEGIO NARIÑO** 95-100 SUP 85-94 ALT 70-84 BSC 10-69 BJO
REFERENTES DE CONTENIDO: Seres vivos e inertes			
REVISADO POR:	**DOCENTE: Gissell Torres**	**JEFE DE AREA: José Mauricio Peña**	
FIRMA ACUDIENTE:		**NOTA:**	

FORTALEZA

MI HOGAR... UN LUGAR PARA SOÑAR

1. Clasifica el grupo de palabras y escribelas sobre las cajas correspondientes ya sean seres vivos o inertes. (20 puntos)

roca sapo mariposa agua perro mesa

Seres Vivos



Seres Inertes

LIVEWORKSHEETS

2. Selecciona si es un ser vivo o ser inerte. (20 puntos)

3. Escribe solo el nombre de los seres **NO VIVOS.** (20 puntos)



4. Observa las imágenes y ordena el crecimiento de la planta como ser vivo. (20 puntos)



LIVEWORKSHEETS

5. Encuentra en la sopa de letras los seres vivos.

W	P	C	A	B	A	Y	P	O	R
H	Z	O	P	G	E	P	A	D	O
P	A	N	I	P	H	J	I	P	V
G	P	E	P	A	J	A	R	O	P
U	R	J	U	P	C	P	E	P	I
S	C	O	P	E	P	A	P	U	P
A	D	O	P	S	P	R	A	N	A
N	P	E	I	Q	U	I	R	A	F
O	T	O	R	T	U	G	A	I	E
P	U	L	P	U	P	Ñ	O	P	P

- ✓ PAJARO
- ✓ RANA
- ✓ TORTUGA
- ✓ CONEJO
- ✓ GUSANO

RETO SABER

Selecciona el círculo de la respuesta correcta

☺ Alguno de los siguientes seres no es inerte.

- a. Sol
- b. Nube
- c. Rio
- d. planta

☺ Los seres vivos se diferencias de los seres inertes en que:

- a. Nacen, crecen y mueren
- b. Crecen, son altos y veloces
- c. Mueren y son de colores
- d. Cambian y no viven

LIVEWORKSHEETS