Ôn Tập

Câu 1. Em hãy kéo thả các thẻ tên tương ứng với các tên gọi khu vực phím.



Khu vực các phím mũi tên

Khu vực phím số

Khu vực chính

Câu 2. Em hãy kéo thả các thẻ tên tương ứng với các tên gọi hàng phím.

Hình 2. Các hàng phím của khu vực chính

Hàng phím số

Hàng phím trên

Hàng phím dưới

Hàng phím cơ sở

Hàng phím chứa dấu cách

Phím dấu cách

LIVEWORKSHEETS

Câu 3: **Nối**

Kết quả làm việc của máy tính sẽ hiện lên ……

Em gửi tín hiệu vào máy tính thông qua ……

…… là một hộp chứa nhiều bộ phận khác nhau, trong đó có bộ xử lí, điều khiển mọi hoạt động của máy tính.

…… giúp em điều khiển máy tính nhanh chóng và thuận tiện.

Bàn phím

Thân máy tính

Chuột máy tính

Màn hình

LIVEWORKSHEETS

Câu 4: Kéo chọn các cụm từ vào chỗ trống theo mẫu

Cồng kềnh	Kích thước lớn	Chạy bằng điện
Gọn gàng	Kích thước nhỏ	Chạy bằng điện/ pin
Dễ mang theo	Các bộ phận của máy liền nhau	Các bộ phận của máy tách rời nhau

Cồng kềnh

Gọn gàng

LIVEWORKSHEETS

Câu 5: Em hãy kéo thả các thẻ tên tương ứng trong sơ đồ hình cây mô tả cách sắp xếp tủ quần áo.

1.Quần áo đi học

2. Quần áo thể thao

0.Tủ quần áo

1.1 Áo sơ mi

2.1 Áo phông

3.Quần áo ấm

1.2 Quần dài

2.2 Quần sooc

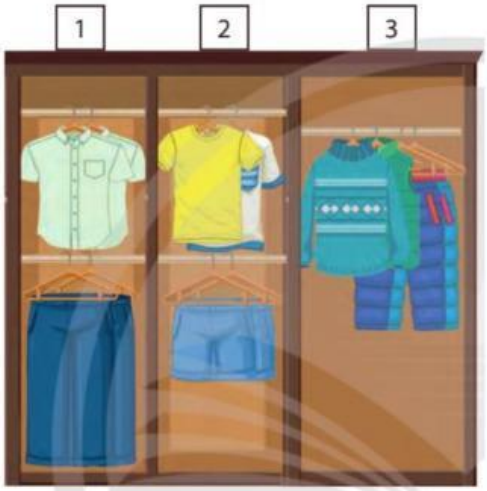

Hình 5a. Tủ quần áo

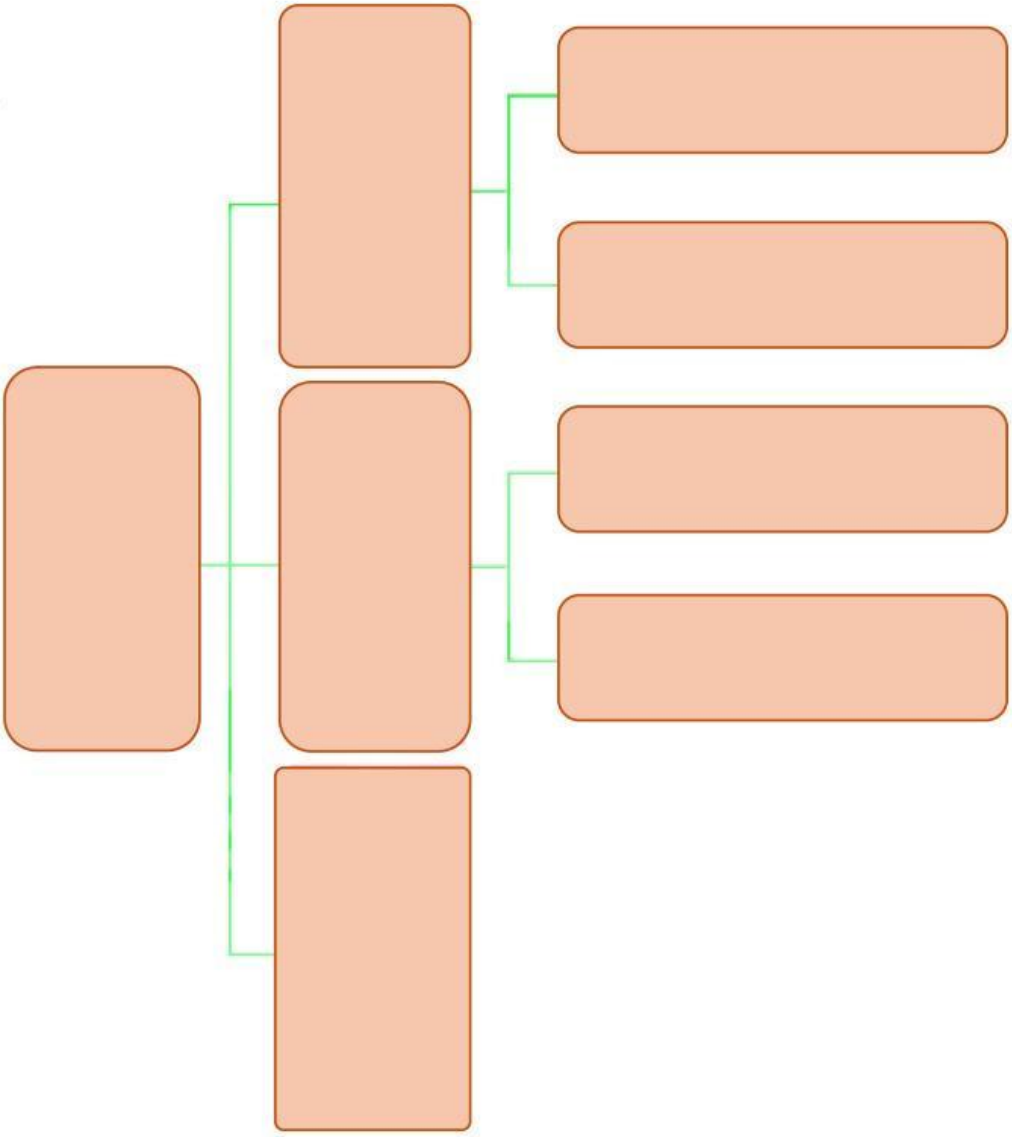

LIVEWORKSHEETS

Câu 6: Em hãy kéo thả các thẻ tên tương ứng trong sơ đồ hình cây mô tả cách sắp xếp đồ vật.

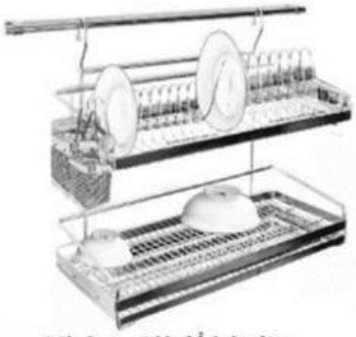

Hình 1. Giá để bát đĩa

Hình 2. Đồ vật cần sắp xếp

Ngăn để bát

Ngăn để đĩa

Để đĩa nhỏ

Ống đựng đũa

Để đĩa to

Ống đựng thìa

Để bát to

Để bát nhỏ

Giá để bát đĩa

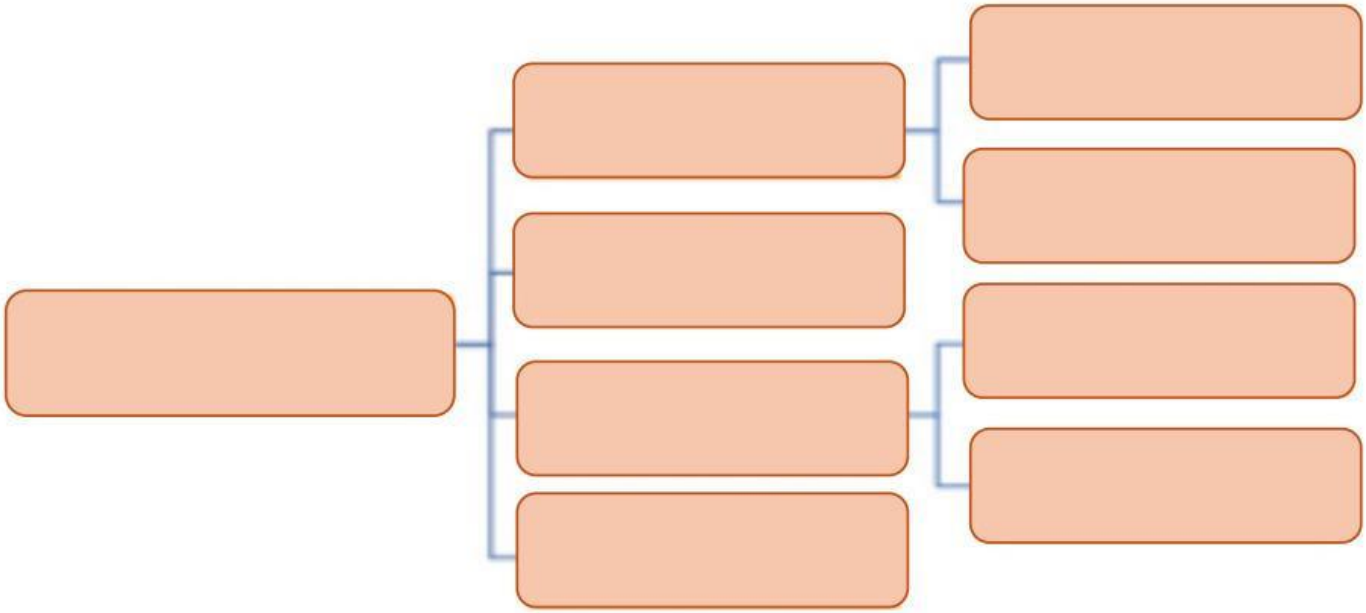

LIVEWORKSHEETS