NOME: _____ 22/02/2021

LÍNGUA PORTUGUESA

CONHECENDO OS SÍMBOLOS

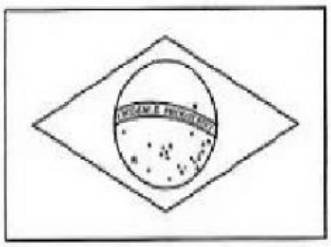

1 QUAIS OS SÍMBOLOS QUE EXISTEM NA SUA ESCOLA?

_____

2 HÁ ALGUM SÍMBOLO EM SEU UNIFORME? O QUE ELE REPRESENTA?

_____

TELEFONE PÚBLICO

PASSAGEM DE PEDESTRES

PROIBIDO FUMAR

PERMITIDO ESTACIONAR

PARE

RESERVADO

PROIBIDO CAMINHÕES

BANDEIRA DO BRASIL

LIVEWORKSHEETS

MATEMÁTICA

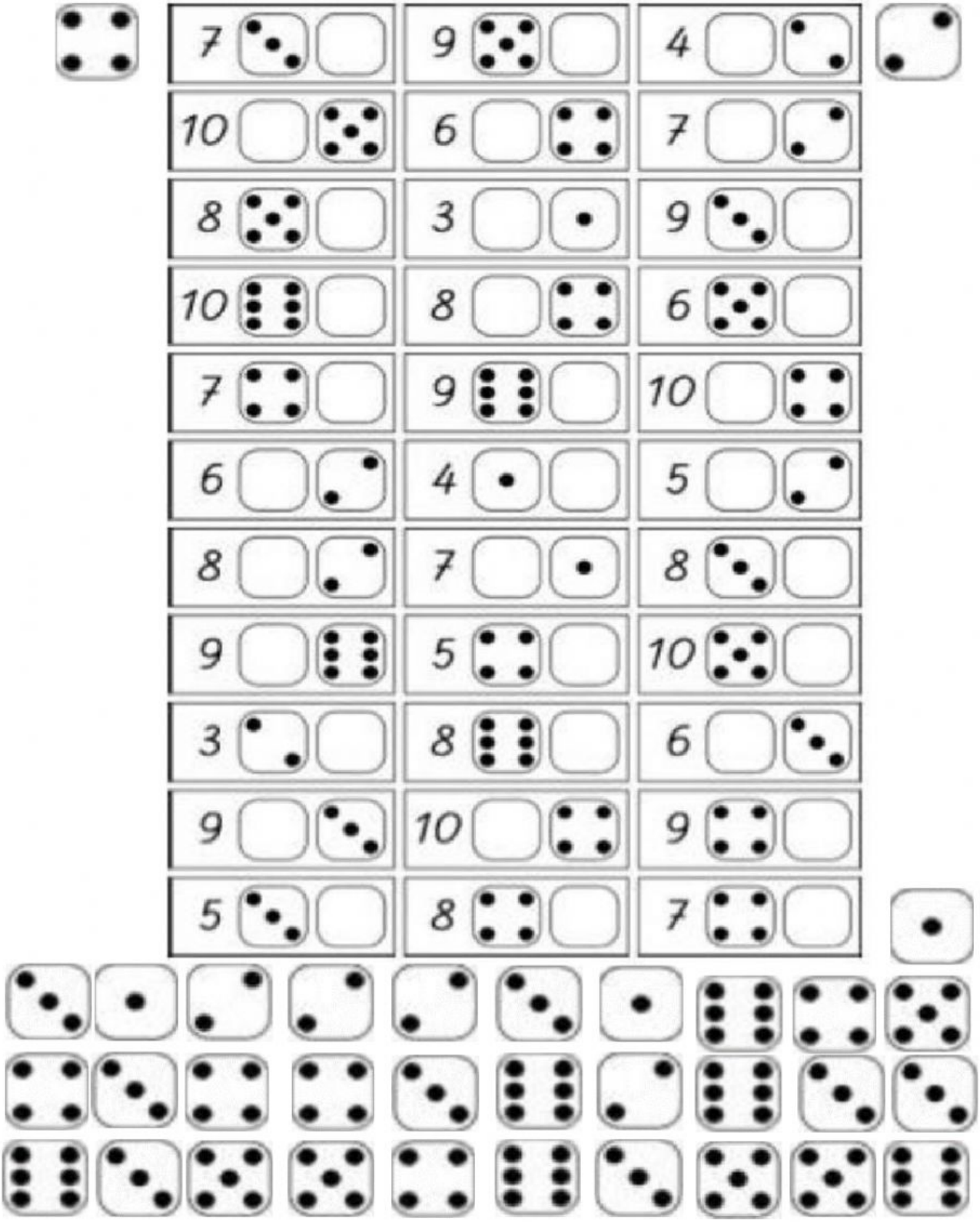

LIVEWORKSHEETS

Veja, no gráfico abaixo, quanto pesa cada brinquedo e, depois, responda:



A) Qual o brinquedo **mais pesado**?

- ☐ Boneca.
- ☐ Trem.
- ☐ Carrinho.

B) Quantos quilos pesam o **carrinho** e a **boneca** juntos?

- ☐ 12 quilos.
- ☐ 13 quilos.
- ☐ 14 quilos.

C) Qual a **diferença** de peso entre a **boneca** e o **ursinho**?

- ☐ 2 quilos.
- ☐ 3 quilos.
- ☐ 4 quilos.

LIVEWORKSHEETS