Ejercicios con números del 1 al 5

¡Unamos!

1. Une las bolitas azules con las bolitas blancas. (4 pts.)



¡Arrastramos!

2. Observa cada conjunto y relaciona el número de elementos que contiene. (6 pts.)

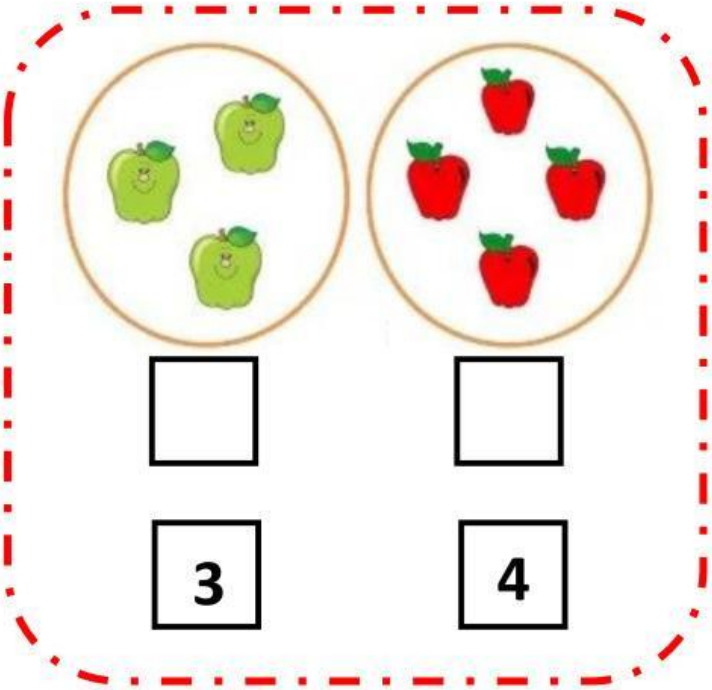

LIVEWORKSHEETS

¡Seleccionamos!

3. Observa las imágenes y selecciona la respuesta correcta. (2 pts.)

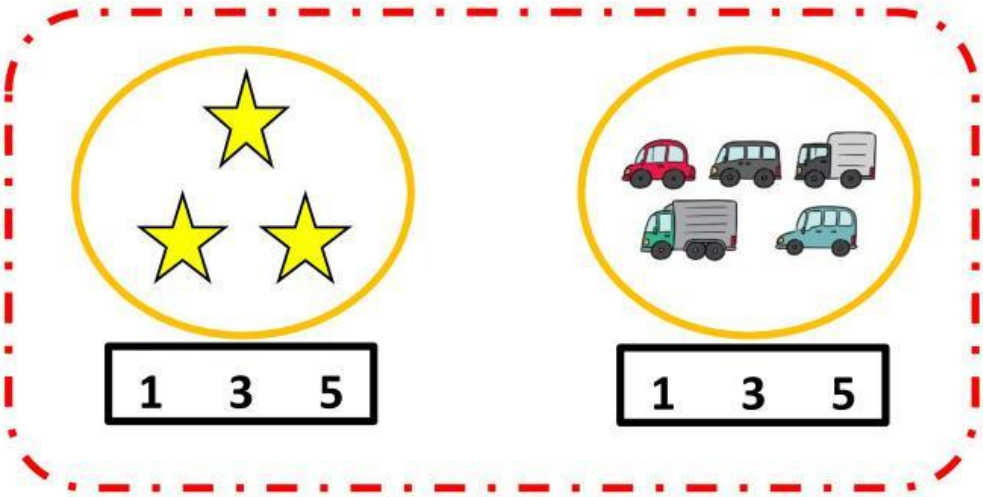

¡Completamos!

4. Halle el resultado de las siguientes sumas. (2 pts.)

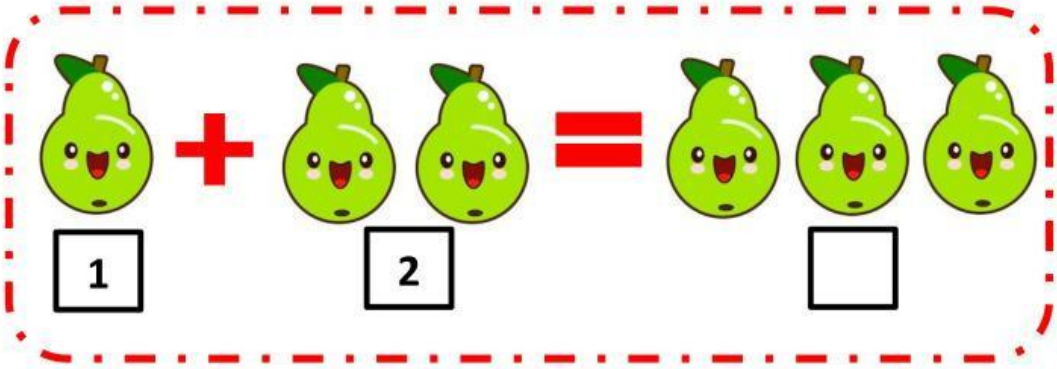

¡Marquemos!

5. ¿Cuál es el resultado de la suma? (2 pts.)

a) 1 gatito
b) 2 gatitos
c) 3 gatitos
d) 4 gatitos
e) 5 gatitos



LIVEWORKSHEETS

¡Resolvamos!

6. Juancito va al mercado y compra 3 manzanas en la tienda de Panchita y 3 manzanas la tienda de Pepe. ¿Cuántas manzanas compro en total? (4 pts.)



RPTA: _____

LIVEWORKSHEETS