LEMBAR KERJA PESERTA DIDIK KELOMPOK

MATEMATIKA KELAS 1 SEMESTER 1

PENJUMLAHAN SAMPAI DENGAN 10

Nama Kelompok :

Nama Anggota Kelompok :

1.

2.

3.

LIVEWORKSHEETS

Tujuan :

Untuk lebih memahami penjumlahan sampai dengan 10 serta dapat menyelesaikan masalah dikehidupan sehari-hari yang berkaitan dengan penjumlahan sampai dengan 10.

Langkah Kerja :

a. Silahkan duduk secara berkelompok

b. Setelah itu, silahkan baca dan pahami secara seksama LKPD yang dibagikan oleh guru.

c. Kemudian, jika ada yang diragukan silahkan bertanya.

d. Jika tidak ada, silahkan diskusikan untuk menyelesaikan LKPD yang diberikan guru dengan perintahnya masing-masing dengan baik dan benar!

LIVEWORKSHEETS

Isilah titik-titik i bawah ini dengan bilangan yang tepat !

1.



LIVEWORKSHEETS

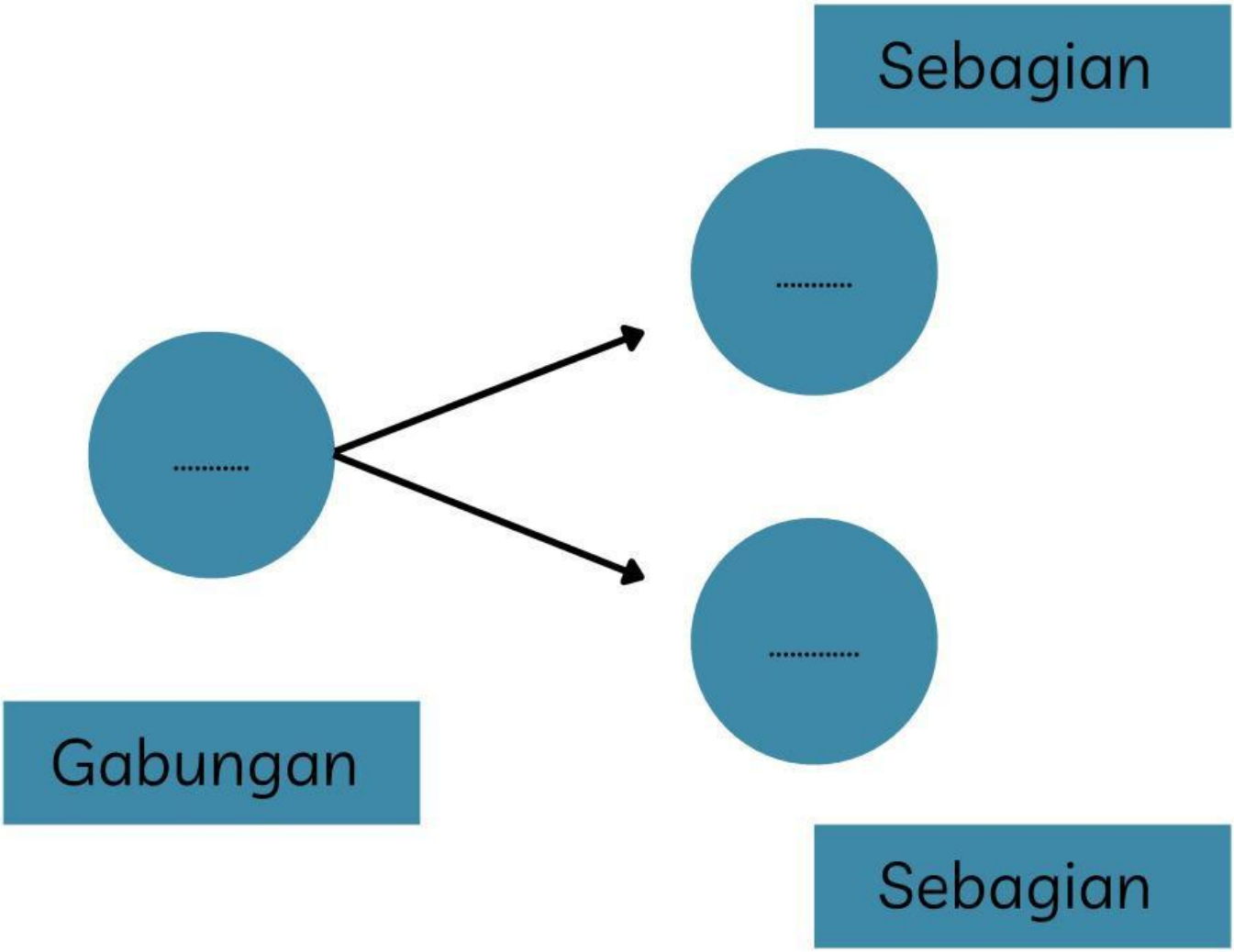

Operasi Penjumlahannya adalah.....

LIVEWORKSHEETS

Lengkapilah setiap kalimat dengan bilangan yang benar !

2.



Ada.....buah pisang

LIVEWORKSHEETS

Ada.....buah apel.

Semuanya ada.....buah

Operasi Penjumlahannya yaitu :

LIVEWORKSHEETS

Jawablah pertanyaan dibawah ini dengan tepat!

3. Bima berada di angka 2. Bima meloncat empat langkah ke depan. Di angka berapakah Bima sekarang ?

Operasi Penjumlahannya :

Jadi, Bima sekarang berada di angka .....

LIVEWORKSHEETS

Kesimpulan :

LIVEWORKSHEETS

SELAMAT MENGERJAKAN

LIVEWORKSHEETS