LEMBAR KERJA PESERTA DIDIK KELOMPOK

MATEMATIKA KELAS 1 SEMESTER 1

PENGURANGAN SAMPAI DENGAN 10

Nama Kelompok :

Nama Anggota Kelompok :

1.

2.

3.

LIVEWORKSHEETS

Tujuan :

Untuk lebih memahami pengurangan sampai dengan 10 serta dapat menerapkannya dalam melakukan penyelesaian masalah dikehidupan sehari-hari yang berkaitan dengan pengurangan sampai dengan 10.

Langkah Kerja :

1. Silahkan duduk secara berkelompok
2. Setelah itu, silahkan baca dan pahami secara seksama LKPD yang dibagikan oleh guru.
3. Kemudian, jika ada yang diragukan silahkan bertanya.
4. Jika tidak ada, silahkan diskusikan untuk menyelesaikan LKPD yang diberikan guru dengan perintahnya masing-masing dengan baik dan benar!

LIVEWORKSHEETS

Tulislah hubungan penjumlahan dan pengurangan pada bulatan yang ada pada kotak yang tersedia dengan benar !

1.

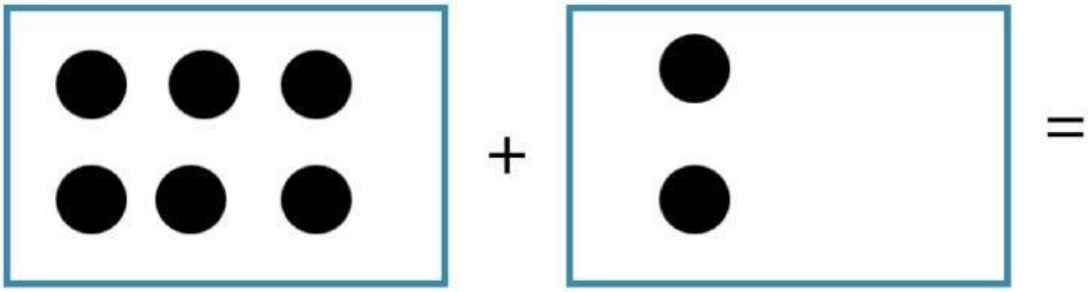

6 + 2 = ...

..... -.....= 6

..... + 6 = ...

..... - 6 = ...

LIVEWORKSHEETS

2.

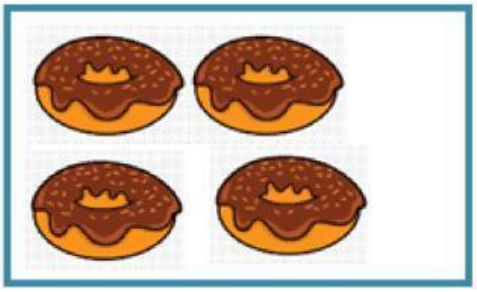

+



=

4 + 3 = ...

..... - ..... = 4

..... + 4 = ...

..... - 4 = ...

3.

Tulislah Kalimat Matematikanya dengan benar !



LIVEWORKSHEETS

Kalimat matematikanya adalah

4. Perhatikan gambar berikut !



Pisang :

Wortel :

LIVEWORKSHEETS

Selisih banyak pisang dan wortel adalah...

Kesimpulan :

LIVEWORKSHEETS

SELAMAT MENGERJAKAN

LIVEWORKSHEETS