גבהים במשולש

ליד כל משולש השלימו מהו אורך הגובה הנתון ומהו אורך הצלע אליה מגיע הגובה.

שימו ❤ יש נתונים מיותרים.

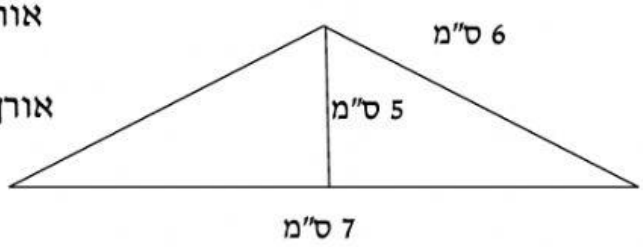

אורך הגובה: ☐

אורך הצלע שאליה מגיע הגובה: ☐

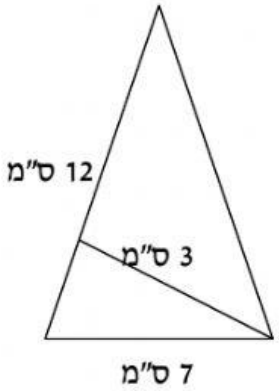

אורך הגובה: ☐

אורך הצלע שאליה מגיע הגובה: ☐

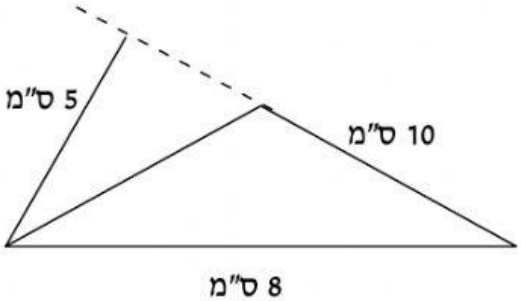

אורך הגובה: ☐

אורך הצלע שאליה מגיע הגובה: ☐

LIVEWORKSHEETS

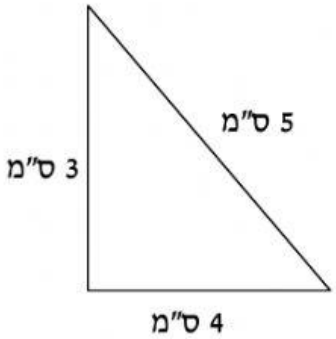

אורך הגובה:

אורך הצלע שאליה מגיע הגובה:

שימו ❤ במשולש זה יש שני גבהים.

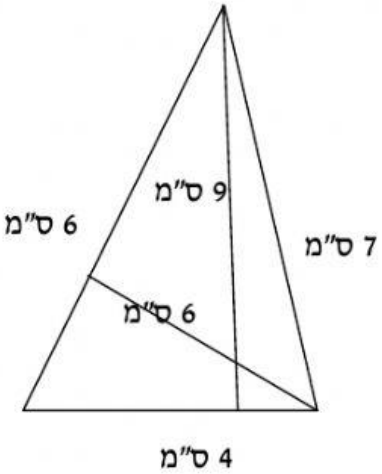

אורך הגובה:

אורך הצלע שאליה מגיע הגובה:

אורך הגובה:

אורך הצלע שאליה מגיע הגובה:

LIVEWORKSHEETS