PENILAIAN AKHIR SEMESTER GANJIL
SMPN 9 BANGKO PUSAKO
TAHUN PELAJARAN 2023/2024

Mata Pelajaran : Ilmu Pengetahuan Sosial (IPS)

Kelas / Semester : IX / Ganjil

Nama :

LEMBAR SOAL

A. Jawab pertanyaan berikut dengan klik huruf a, b, c, atau d yang kamu anggap benar !

1. Apa yang dimaksud dengan perubahan sosial budaya lambat atau evolusi ?
   a. Perubahan sosial cepat
   b. Perubahan sosial yang terencana
   c. Perubahan sosial yang memerlukan waktu lama
   d. Perubahan sosial kecil

2. Mengapa pembangunan jalan dikategorikan sebagai perubahan yang direncanakan ?
   a. Karena pembangunan jalan hanya dilakukan di kota
   b. Karena pembangunan jalan tidak membutuhkan perencanaan
   c. Karena pembangunan jalan diinginkan dan dikehendaki oleh masyarakat atau pihak yang menginginkan perubahan
   d. Karena pembangunan jalan selalu terjadi tanpa persiapan

3. Perubahan sosial budaya yang tidak direncanakan dapat terjadi akibat ?
   a. Keinginan masyarakat
   b. Faktor alam
   c. Perubahan nilai dan norma
   d. Teknologi yang direncanakan

4. Contoh perubahan sosial budaya yang pengaruhnya besar adalah ?
   a. Perubahan model rambut
   b. Penerapan Buku Sekolah Elektronik
   c. Perubahan gaya berbusana
   d. Perubahan nilai kegotongroyongan

LIVEWORKSHEETS

5. Apa yang dapat menyebabkan perusakan alam dan perubahan sosial budaya?
   a. Penggunaan teknologi yang benar
   b. Penemuan baru
   c. Pertambahan penduduk
   d. Pengaruh kebudayaan masyarakat lain

6. Perkembangan ilmu pengetahuan yang terlambat dapat menjadi penghambat perubahan sosial budaya. Mengapa demikian ?
   a. Karena ilmu pengetahuan tidak berpengaruh
   b. Karena ilmu pengetahuan selalu terlambat
   c. Karena ilmu pengetahuan tidak berkembang
   d. Karena ilmu pengetahuan membutuhkan waktu untuk diterapkan

7. Apa yang menjadi penghambat perubahan sosial budaya ?
   a. Sikap masyarakat yang terbuka
   b. Adanya prasangka terhadap hal-hal baru atau asing
   c. Perubahan lingkungan alam
   d. Penemuan baru

8. Apa yang dimaksud dengan globalisasi bidang budaya?
   a. Penyebaran tradisi lokal
   b. Penghapusan perbedaan budaya
   c. Peningkatan keberagaman budaya
   d. Pertukaran bahan pangan

9. Contoh globalisasi budaya dalam bahasa adalah...
   a. Bahasa Inggris sebagai bahasa dunia
   b. Bahasa Indonesia sebagai bahasa resmi
   c. Bahasa Jawa sebagai bahasa daerah
   d. Bahasa Arab sebagai bahasa agama

10. Apa yang dimaksud dengan komunikasi?
   a. Pertukaran budaya
   b. Proses penyampaian pesan atau informasi
   c. Aktivitas perdagangan internasional
   d. Pembentukan organisasi internasional

11. Bagaimana teknologi komunikasi telah berkembang dalam era globalisasi?
   a. Menjadi lebih terbatas
   b. Lebih fokus pada komunikasi tatap muka
   c. Berkembang pesat dengan internet dan media sosial
   d. Tidak berpengaruh pada komunikasi manusia

LIVEWORKSHEETS

12. Apa manfaat utama perkembangan teknologi komunikasi dalam era globalisasi?
    a. Meningkatkan perdagangan internasional
    b. Mendekatkan interaksi antarmanusia
    c. Mempercepat aliran informasi
    d. Meniadakan kebutuhan akan komunikasi

13. Faktor apa yang mendorong globalisasi di bidang transportasi?
    a. Kemajuan teknologi
    b. Perkembangan teknologi komunikasi
    c. Pembatasan kebebasan individu
    d. Pengurangan alat transportasi

14. Apa yang menjadi contoh inovasi dalam transportasi publik?
    a. Penggunaan teknologi otomatis dalam mobil
    b. Penggunaan radar untuk mengukur kecepatan
    c. Penerapan sistem navigasi pada pesawat
    d. Semua jawaban benar

15. Apa yang dimaksud dengan transportasi?
    a. Pertukaran barang
    b. Pemindahan manusia atau barang dari satu tempat ke tempat lain
    c. Sistem perdagangan internasional
    d. Pembaharuan alat transportasi

16. Apa yang dimaksud dengan ilmu pengetahuan?
    a. Pengetahuan yang tidak dapat diuji
    b. Pengetahuan yang dapat diuji dan diandalkan secara sistematis
    c. Pengetahuan tanpa prinsip dan prosedur tertentu
    d. Pengetahuan tanpa dasar teori

17. Organisasi internasional yang terkait dengan globalisasi ekonomi adalah...
    a. European Free Trade Association (EFTA)
    b. Organization of Petroleum Exporting Countries (OPEC)
    c. European Community (EC)
    d. Semua jawaban benar

18. Apa yang dimaksud dengan perdagangan bebas?
    a. Pembatasan perdagangan internasional
    b. Sistem perdagangan tanpa hambatan
    c. Perdagangan dengan subsidi pemerintah
    d. Monopoli perdagangan oleh satu negara

LIVEWORKSHEETS

19. Benua merah adalah julukan dari benua ?
    a. Asia
    b. Afrika
    c. Eropa
    d. Amerika

20. Benua biru adalah julukan dari benua ?
    a. Asia
    b. Afrika
    c. Eropa
    d. Amerika

21. Benua Asia terletak di ....
    a. 170º BT–35º BB dan 83º LU–55º LS
    b. 17º BB–52º BT dan 35º LU–34º LS
    c. 26º BT – 170º BT dan 11º LS – 80º LU
    d. 9º BB–60º BT dan 35º LU–80º LU

22. Benua Eropa terletak di ....
    a. 9º BB–60º BT dan 35º LU–80º LU
    b. 17º BB–52º BT dan 35º LU–34º LS
    c. 170º BT–35º BB dan 83º LU–55º LS
    d. 26º BT – 170º BT dan 11º LS – 80º LU

23. Penduduk asli negara Amerika Serikat adalah ...
    a. Bangsa Kelt
    b. Suku Indian
    c. Bangsa Arab
    d. Suku Aborigin

24. Penduduk asli negara Australia adalah ...
    a. Bangsa Kelt
    b. Suku Indian
    c. Bangsa Arab
    d. Suku Aborigin

25. Jumlah penduduk Jepang tahun 2015 adalah ….
    a. 321,2 juta jiwa
    b. 126,9 juta jiwa
    c. 89,1 juta jiwa
    d. 23,9 juta jiwa

LIVEWORKSHEETS

26. Jumlah penduduk Amerika Serikat tahun 2015 adalah ….
    a. 321,2 juta jiwa
    b. 126,9 juta jiwa
    c. 89,1 juta jiwa
    d. 23,9 juta jiwa

27. Benua terluas di permukaan bumi adalah....
    a. Afrika
    b. Amerika
    c. Asia
    d. Eropa
28. Laju pertumbuhan penduduk benua Amerika per tahun adalah ....
    a. 0,2 % per tahun
    b. 0,9 % per tahun
    c. 1,5 % per tahun
    d. 2,5 % per tahun
29. Laju pertumbuhan penduduk benua Eropa per tahun adalah ....
    a. 0,2 % per tahun
    b. 0,9 % per tahun
    c. 1,5 % per tahun
    d. 2,5 % per tahun
30. Laju pertumbuhan penduduk benua Afrika per tahun adalah ....
    a. 0,2 % per tahun
    b. 0,9 % per tahun
    c. 1,5 % per tahun
    d. 2,5 % per tahun

LIVEWORKSHEETS

B. Klik kotak yang berwarna kuning lalu pilih jawaban yang benar !

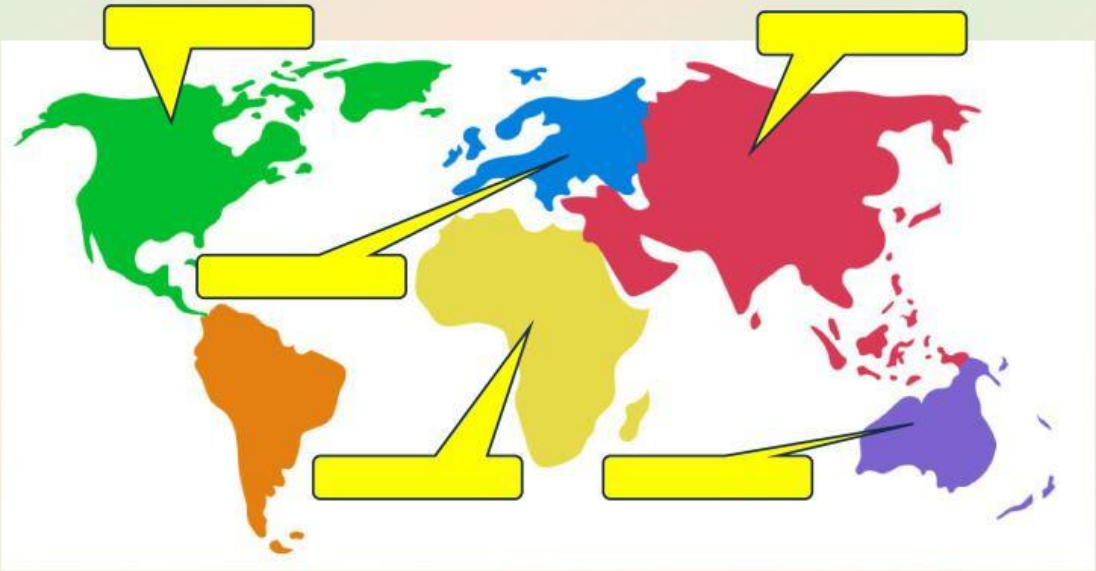

SMPN 9 BANGKO PUSAKO

LIVEWORKSHEETS



SMPN 9 BANGKO PUSAKO

LIVEWORKSHEETS





C. Tarik garis lurus untuk memasangkan benua dengan luas wilayahnya

EROPA	44.000.000 km2
AFRIKA	42.057.100 km2
ASIA	10.355.000 km2
AMERIKA	30.290.000 km2
AUSTRALIA	8.945.000 km2

LIVEWORKSHEETS

D. Temukan 5 benua di dalam kotak dibawah ini !

E	Q	E	R	M	A	Z	T	O	I	Y	C
Q	R	V	Q	B	U	L	H	A	Z	K	S
J	L	O	G	M	S	Q	M	U	S	S	X
E	K	B	P	S	T	E	G	B	F	L	W
I	V	M	O	A	R	T	J	L	Q	R	S
K	G	I	C	I	A	O	J	X	V	H	D
N	H	X	K	X	L	V	W	K	N	S	Y
N	P	A	F	Q	I	I	I	K	K	M	Y
A	K	I	R	F	A	S	P	A	S	I	A
I	A	W	H	C	X	A	Z	Z	Z	O	I
X	W	U	I	I	L	N	Z	A	Q	H	A
A	N	B	J	W	B	R	G	Z	J	M	N

LIVEWORKSHEETS