Desafíos matemáticos de multiplicación

1. Escribe las multiplicaciones para calcular el número de objetos de los arreglos rectangulares.

a)



_____ x _____ = _____

_____ x _____ = _____

b)



_____ x _____ = _____

_____ x _____=_____

c)



_____ x _____ = _____

_____ x _____ = _____

2. Escribe las operaciones que resuelven los siguientes desafíos.

a) Misael tiene 5 cajas con 8 legos en cada caja, ¿cuántos legos tiene en total?

b) Vanesa tiene 4 canastas con 6 mangos en cada una, ¿cuántos mangos tengo en total?

LIVEWORKSHEETS